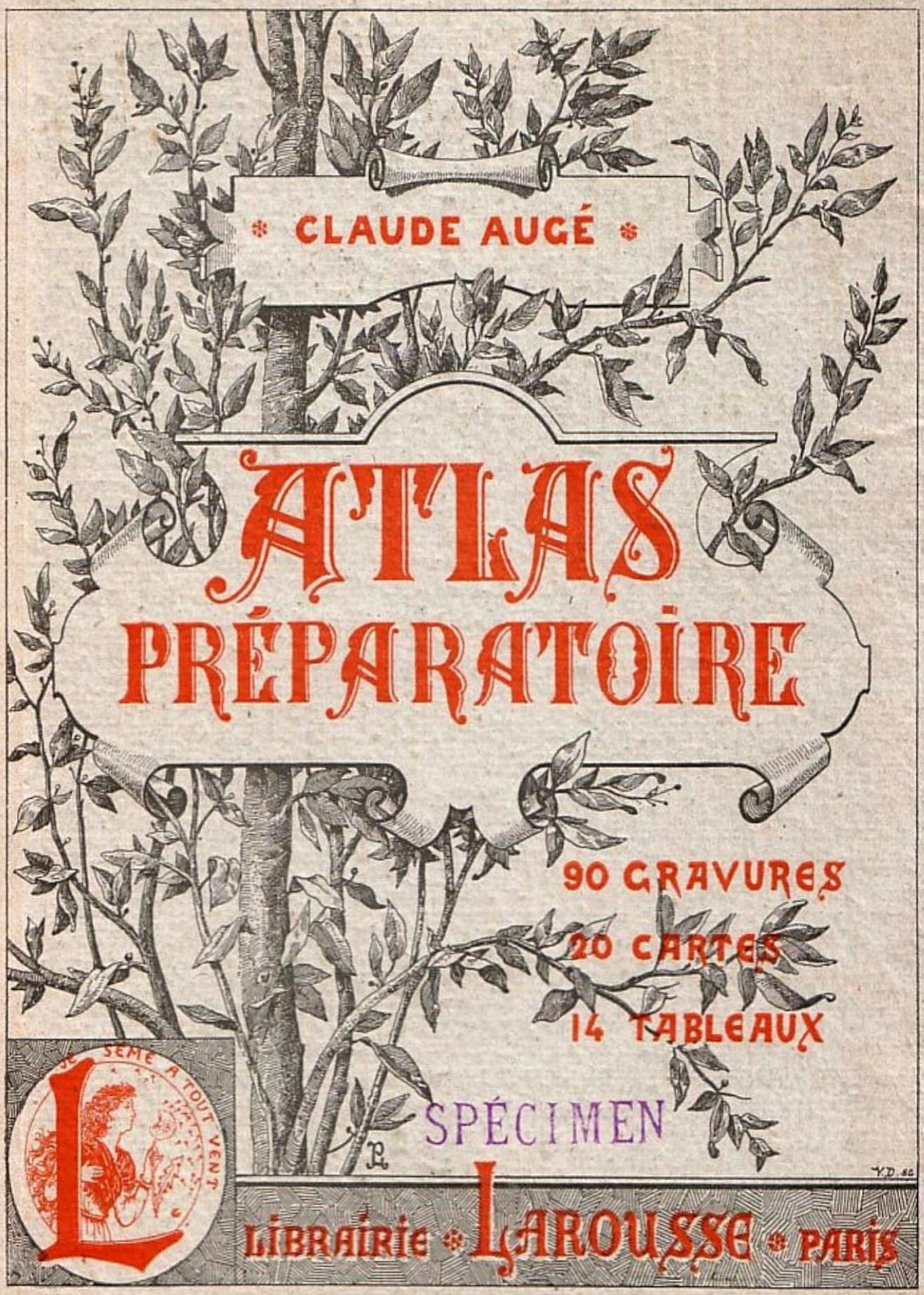
CLAUDE AUGÉ
ATLAS
PRÉPARATOIRE
90 GRAVURES
20 CARTES
14 TABLEAUX
SPÉCIMEN
SE SÈME A TOUT VENT
LIBRAIRIE LAROUSSE PARIS

Ducœur

ATLAS PRÉPARATOIRE

PAR

CLAUDE AUGÉ

Leçons. — Lectures. — Questionnaires et Devoirs.
Exercices d'élocution.
90 Gravures. — 20 Cartes. — 14 Tableaux.

SOIXANTE-CINQUIÈME ÉDITION

PARIS
LIBRAIRIE LAROUSSE
13-21, RUE MONTPARNASSE, 13-21
SUCCURSALE : 58, rue des Écoles, 58 (Sorbonne)

Tous droits réservés.

MES CHERS ENFANTS,

Quand l'heure des vacances a sonné, vous vous disposez tous à prendre un repos que vous ont mérité dix mois de travail et de bonne conduite. Les uns gagnent le bord de la mer pour y chercher la brise saline, le sable fin ou les galets, le spectacle des vagues apaisées ou des flots courroucés ; les autres préfèrent la montagne, ses gorges, ses glaciers, ses pics et les ascensions. Ceux-ci vont de ville en ville admirer les monuments ou le mouvement des grandes cités marchandes ; ceux-là mettent au-dessus de tout le calme des champs, les promenades sous bois, les longues séances sur la rive du cours d'eau voisin. Le petit nombre enfin, passant la frontière, va comparer au pays natal la terre étrangère, les mœurs de la patrie à celles de l'univers.

La mer et la terre, la montagne et le fleuve, la ville et la campagne, la France et l'étranger, tout cela c'est l'objet même de la géographie Il n'est pas d'étude plus vivante que celle qui nous enseigne les aspects de la nature et l'œuvre de l'homme sur le globe où il est appelé à passer ses jours.

C. A.

PLAN DE L'OUVRAGE

Ce livre est divisé en trois parties, ou, pour mieux dire, comprend trois ordres de matières : des leçons, des lectures, des questionnaires et devoirs.

Les *leçons*, courtes et simples, sont imprimées en gros caractères, et ne comprennent que l'essentiel. Quant aux éclaircissements et aux explications complémentaires qu'elles comportent, ils précèdent ou suivent les leçons selon les cas : composés en caractères plus fins, ils doivent être lus et relus avec le plus grand soin, sans être précisément appris par cœur comme la leçon elle-même. On appréciera sans peine les avantages d'une combinaison typographique qui fait immédiatement ressortir les notions capitales.

Les *lectures* ont un but multiple. Elles complètent utilement les leçons et peuvent servir à la fois d'exercices de lecture, d'écriture, d'orthographe et d'élocution. Il n'est pas besoin d'insister sur le parti que les maîtres ne manqueront pas d'en tirer. Nous les leur recommandons surtout comme exercices d'élocution, car ils savent, par expérience, avec quelle difficulté l'enfant, au cours des interrogations, exprime souvent les idées les plus simples. Comme nous l'avons dit précédemment dans notre *Cours de Grammaire*, il est nécessaire de lui apprendre à parler, et on y parviendra d'autant mieux qu'il aura, par les leçons, les explications et les lectures, bien compris les matières sur lesquelles on l'exercera à s'exprimer.

Les *questionnaires* et *devoirs* sont très sobrement composés. Il a paru non pas seulement inutile, mais encore et surtout nuisible de surcharger les pages de ces sortes de questions où le maître fait pour ainsi dire à lui seul la demande et la réponse. Il faut provoquer la réflexion, qui amène tout naturellement la solution sur les lèvres de l'enfant.

Les cartes, tout en étant aussi explicites que possible, ne sont encombrées ni de noms, ni d'explications qui pourraient en rendre la consultation difficile ; elles sont établies de manière à ne nécessiter qu'un texte explicatif très sommaire : l'enseignement par les yeux étant ici préférable à l'enseignement par l'abstrait. C'est pour cette raison que nous n'avons pas craint de multiplier le nombre des gravures, mais en nous efforçant de leur conserver toujours un caractère vraiment éducatif.

N. B. — Nous avons placé l'étude de la France après celle des cinq parties du monde, nous conformant en cela à un usage presque constant. Mais cette disposition matérielle n'enchaîne nullement la liberté du maître qui, connaissant seul les besoins de sa classe, estimera mieux que personne dans quel ordre il conviendra de procéder.

C. A.



NOTIONS PRÉLIMINAIRES

GÉOGRAPHIE — TERRE

1. La *Géographie* est la description de la surface de la Terre.

Apprendre la Géographie, c'est étudier les diverses parties de la Terre, les plantes et les animaux qui y vivent, les hommes qui les habitent.

2. La *Terre* est ronde; elle a la forme d'une boule.

La Terre ne repose sur rien; c'est une boule énorme qui roule dans l'espace. Elle a 40.000 kilomètres ou 10.000 lieues de tour.

3. La Terre reçoit du Soleil la chaleur et la lumière.

Distance du Soleil à la Terre : 148 millions de kilomètres.

QUESTIONNAIRE ET DEVOIRS : 1. Qu'est-ce que la Géographie ? — 2. Quelle est la forme de la Terre ? — Sur quoi repose la Terre ? — Combien la Terre a-t-elle de tour ? — 3. Que donne le Soleil à la Terre ?

LECTURE ET COPIE. — Le Soleil.

Le *Soleil* est un astre lumineux, une étoile, qui a la forme d'un globe immense. Il est 1.400.000 fois plus grand que la Terre. Le Soleil paraît petit parce qu'il est très éloigné de nous. Il est si loin qu'un boulet de canon, partant de la Terre, mettrait dix ans pour y arriver.

La Terre n'est pas un astre lumineux; c'est une *planète*. La chaleur et la lumière que lui donne le Soleil sont indispensables à la vie des hommes, des animaux et des plantes.

ÉLOCUTION. — Dites de vive voix ce que vous savez du Soleil.

MOUVEMENTS DE LA TERRE

La Terre tourne *sur elle-même* et *autour du Soleil*.

1. La Terre tourne sur elle-même en *un jour* ou *24 heures*.

Pendant ces 24 heures, la Terre présente au Soleil tantôt l'une de ses moitiés, tantôt l'autre. Dans la partie éclairée, c'est le *jour*; dans la partie obscure, c'est la *nuit*.

2. La Terre tourne autour du Soleil en *une année* ou *365 jours*.

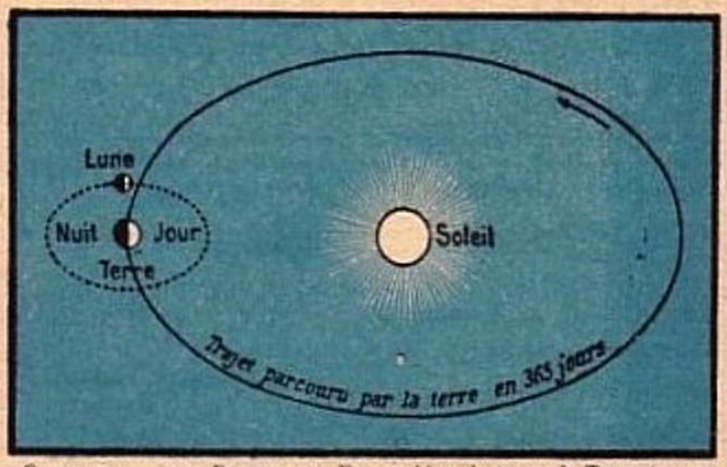

QUESTIONNAIRE ET DEVOIRS : 1. En combien de temps la Terre tourne-t-elle sur elle-même ? — 2. En combien de temps tourne-t-elle autour du Soleil ?

LECTURE ET COPIE. — La Lune.

La *Lune* est, comme la Terre, une planète éclairée par le Soleil. Elle tourne autour de la Terre en 27 jours, comme la Terre tourne autour du Soleil en une année.

La Lune est 50 fois plus petite que la Terre, dont elle est distante de 375.000 kilomètres. Elle paraît aussi grande que le Soleil parce qu'elle est bien moins éloignée. Le même boulet de canon, qui mettrait dix ans pour aller au Soleil, ne mettrait que neuf jours pour aller à la Lune.

ÉLOCUTION. — Dites de vive voix ce que vous savez de la Lune.

REPRÉSENTATION DE LA TERRE

1. Pour représenter la Terre on se sert soit de *globes* ou *sphères*, soit de *cartes*.

Un *globe terrestre* est une boule sur laquelle on a dessiné les différentes parties de la Terre. Ce globe représente en petit ce que la Terre est en grand.

Une *carte* est la reproduction, sur le papier, de la Terre ou d'une partie de la Terre.

QUESTIONNAIRE ET DEVOIRS : 1. De quoi se sert-on pour représenter la Terre ? — Qu'est-ce qu'un globe terrestre ? Qu'est-ce qu'une carte ?

Globe terrestre.

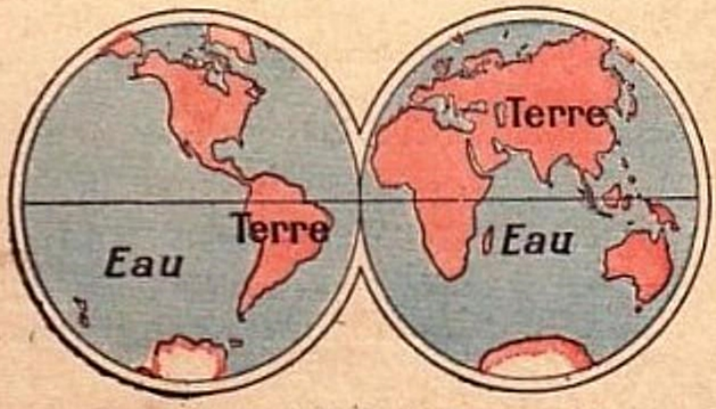

Carte représentant la Terre coupée en deux parties.

TERRES — EAUX

1. La surface de la Terre se compose de *terre* et d'*eau*.

Il y a trois fois plus d'eau que de terres.

Cette grande étendue d'eau s'appelle *mer* ou *océan*.

QUESTIONNAIRE ET DEVOIRS : 1. De quoi se compose la surface de la Terre ? — Combien de fois y a-t-il plus d'eau que de terres ? — Comment s'appelle la grande étendue d'eau ?

POINTS CARDINAUX

Les points cardinaux ont été imaginés pour se diriger sur la terre et sur la mer.

1. Il y a quatre points cardinaux qui sont : l'*Est*, l'*Ouest*, le *Nord* et le *Sud*.

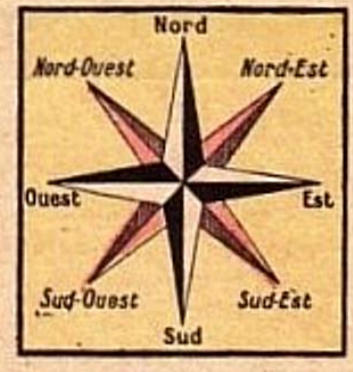

L'*Est* est le point où le Soleil paraît *se lever*. L'Est est encore appelé *Levant* ou *Orient*.

L'*Ouest* est le point où le Soleil paraît *se coucher*. L'Ouest est encore appelé *Couchant* ou *Occident*.

Le *Nord* est encore appelé *Septentrion*.

Le *Sud* est encore appelé *Midi*.

NOTA. — Les points situés entre les quatre points cardinaux sont : le *nord-est*, entre le nord et l'est ; le *nord-ouest*, entre le nord et l'ouest ; le *sud-est*, entre le sud et l'est ; le *sud-ouest*, entre le sud et l'ouest.

QUESTIONNAIRE ET DEVOIRS : 1. Nommez les quatre points cardinaux. — Qu'est-ce que l'*Est* ? — Comment l'appelle-t-on encore ? — Qu'est-ce que l'*Ouest* ? — Comment l'appelle-t-on encore ? — Quel nom porte encore le *Nord* ? — Quel nom porte encore le *Sud* ?

ORIENTATION

S'*orienter*, c'est chercher à reconnaître la direction de l'*orient* et des autres points cardinaux.

1. On peut s'orienter : 1° à l'aide du *Soleil* pendant le jour ; 2° au moyen de l'*étoile polaire* pendant la nuit ; 3° avec la *boussole*.



Pour s'orienter à l'aide du Soleil, on se place de manière à avoir le Soleil levant, c'est-à-dire l'*Est*, à droite. Alors on a l'*Ouest* à gauche, le *Nord* devant soi et le *Sud* derrière soi.

2. Sur les cartes, le Nord est en haut, le Sud en bas, l'Est à droite et l'Ouest à gauche.

QUESTIONNAIRE ET DEVOIRS : 1. Comment peut-on s'orienter ? — Comment s'oriente-t-on à l'aide du Soleil ? — 2. Où se trouvent les points cardinaux sur les cartes ?

La boussole.



Position de l'étoile polaire dans le ciel.

LECTURE ET COPIE. — L'Étoile polaire et la Boussole.

Pour s'orienter la nuit, on se tourne vers l'étoile polaire et l'on a le *Nord* devant soi.

Mais, comme les nuages cachent souvent le Soleil et l'étoile polaire, on s'oriente surtout avec la boussole.

La *boussole* est un instrument composé d'un cadran au milieu duquel se trouve une *aiguille aimantée* mobile, dont la pointe bleue se tourne toujours vers le nord. Sur le cadran de la boussole sont marqués les points cardinaux, comme les heures sont marquées sur le cadran d'une montre.

ÉLOCUTION. — Comment s'oriente-t-on avec l'étoile polaire ? — Avec quoi s'oriente-t-on surtout ? — Qu'est-ce qu'une boussole ?

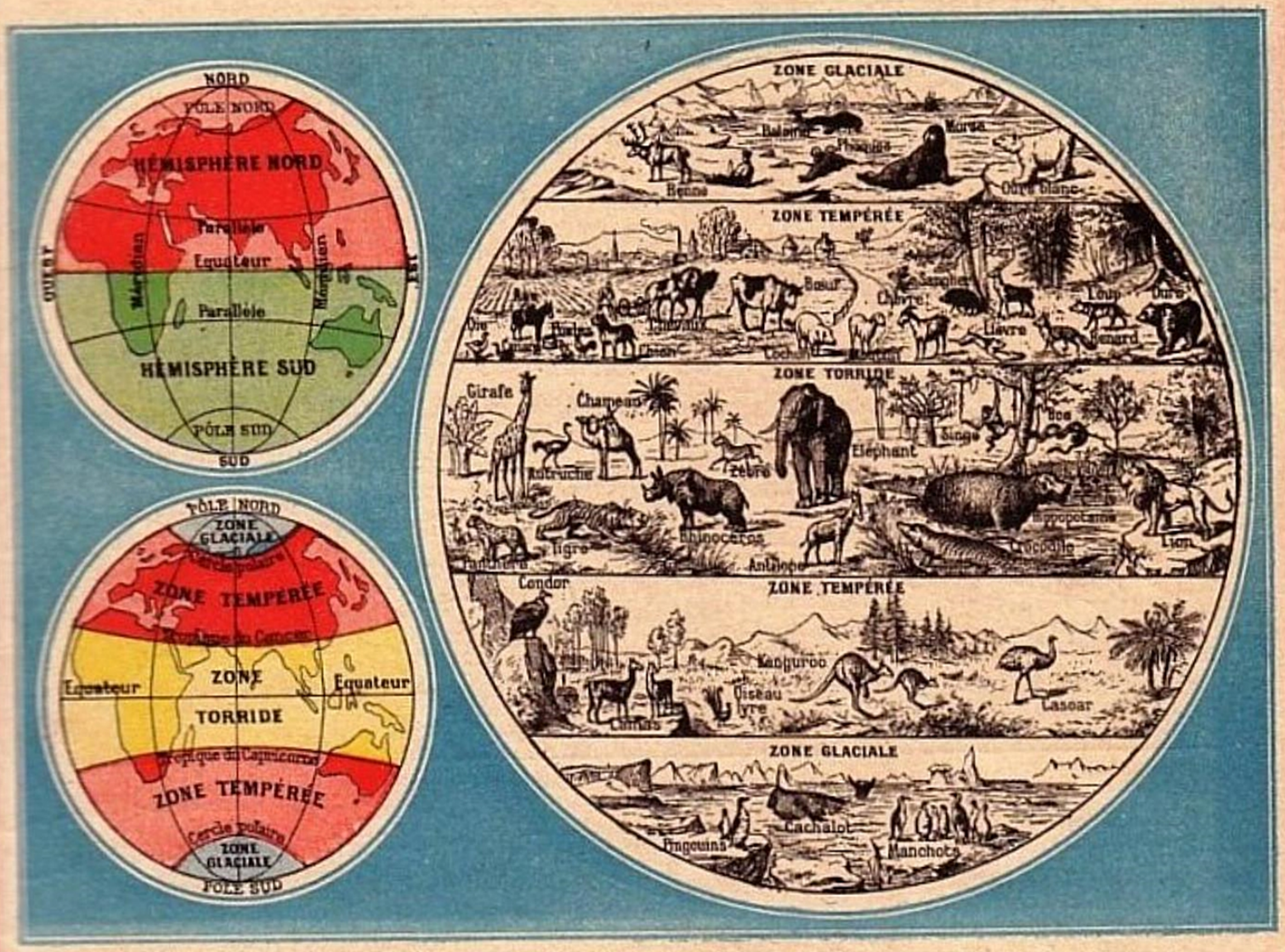

Les deux hémisphères et les cinq zones. Les principaux animaux qui vivent dans chacune des cinq zones.

PÔLES — ÉQUATEUR

La Terre tourne sur elle-même autour d'une ligne droite imaginaire qui passerait par son centre, et que l'on nomme *axe*.

Ainsi, si l'on prend une orange et qu'on la perce par le milieu avec une aiguille à tricoter, l'orange représentera la Terre, et l'aiguille représentera l'axe.

1. On appelle *pôles* les deux extrémités de l'axe de la Terre.

Il y a deux pôles : le *pôle nord* et le *pôle sud*.

2. L'*équateur* est un cercle imaginaire qui entoure la Terre à égale distance des deux pôles.

L'équateur divise la Terre en deux parties égales, en deux *demi-sphères* ou *hémisphères* : l'hémisphère nord et l'hémisphère sud.

Questionnaire et Devoirs : 1. Qu'appelle-t-on *pôles ?* — Quels sont les deux pôles ? — 2. Qu'est-ce que l'*équateur ?* — Comment l'équateur divise-t-il la Terre ?

LECTURE ET COPIE. — Cercles.

Pour déterminer la position exacte d'un lieu sur la Terre, on a imaginé des *cercles* appelés *parallèles* et *méridiens*.

Les *parallèles* sont des cercles tracés parallèlement à l'équateur. — Les *méridiens* sont des cercles qui font le tour de la Terre en passant par les deux pôles.

LECTURE ET COPIE. — Zones et Climats.

C'est à l'équateur qu'il fait le plus chaud, car c'est là que le Soleil darde directement ses rayons.

La chaleur diminue à mesure qu'on s'éloigne de l'équateur et qu'on s'avance vers les pôles. C'est aux pôles qu'il fait le plus froid.

D'après les divers climats, on a partagé la Terre en cinq zones : 1° la *zone torride* (où il fait très chaud) est située entre deux cercles parallèles appelés *tropiques ;* 2° les deux *zones tempérées* (où la chaleur et le froid ne sont jamais excessifs) se trouvent entre les tropiques et deux autres cercles appelés *cercles polaires ;* 3° les deux *zones glaciales* (où il fait très froid) sont aux pôles.

Élocution. — Pourquoi a-t-on imaginé les parallèles et les méridiens ? — Où fait-il le plus chaud ? — Où fait-il le plus froid ? — En combien de zones a-t-on divisé la Terre ? — Nommez les cinq zones.



Les terres et les eaux telles qu'on les voit.

TERMES GÉOGRAPHIQUES

LES EAUX

1. **Mer.** — On appelle *mer* une grande étendue d'eau amère et salée.

2. **Détroit.** — Un *détroit* est une partie de mer resserrée entre deux terres.

Un détroit réunit deux mers.

3. **Golfe.** — Un *golfe* est une partie de mer qui s'avance dans la terre.

Un petit golfe se nomme *baie* ou *anse*.

4. **Lac.** — Un *lac* est une étendue d'eau entourée de terre de tous côtés.

Un petit lac se nomme *étang*.

QUESTIONNAIRE ET DEVOIRS : Qu'appelle-t-on *mer?* — 2. Qu'est-ce qu'un *détroit?* — Qu'appelle-t-on *golfe?* — 4. Qu'est-ce qu'un *lac?*

LECTURE ET COPIE. — **Les Côtes.**

Les bords des terres touchant la mer se nomment *côte, rivage* ou *littoral*. Les côtes basses se nomment *plages;* elles sont couvertes de sable ou de cailloux appelés *galets*. Les côtes élevées se nomment *falaises*.

Souvent, près des côtes, se trouvent des pointes de rochers à peine visibles au-dessus des flots : ce sont des *écueils* ou *récifs* très dangereux pour les navires, qui peuvent s'y briser. Pour avertir les marins on élève sur ces écueils des *phares* qu'on éclaire la nuit.

ÉLOCUTION. — Que nomme-t-on *côte?* — Qu'appelle-t-on *plage? falaise?*

1. **Fleuve.** — Un *fleuve* est un cours d'eau qui se jette dans la mer.

On appelle *source* l'endroit où un fleuve commence et *embouchure* l'endroit où il se jette dans la mer.

2. **Rivière.** — Une *rivière* est un cours d'eau qui se jette dans un fleuve ou dans une autre rivière.

Un *affluent* est un cours d'eau qui se jette dans un autre. — Le *confluent* est l'endroit où deux cours d'eau se réunissent.

Les *rives* sont les bords d'un cours d'eau. La *rive droite* est celle que l'on a à sa droite quand on suit le courant de l'eau; la *rive gauche* est celle qu'on a à sa gauche.

3. **Canal.** — Un *canal* est une espèce de rivière creusée par la main des hommes.

QUESTIONNAIRE ET DEVOIRS : 1. Qu'est-ce qu'un *fleuve?* — Qu'appelle-t-on *source? embouchure?* — 2. Qu'est-ce qu'une *rivière?* — Qu'appelle-t-on *affluent?* — Qu'est-ce que le *confluent?* — Qu'appelle-t-on *rive droite* et *rive gauche* d'un fleuve ? — 3. Qu'est-ce qu'un *canal?*

LECTURE ET COPIE. — **Les Cours d'eau.**

Les cours d'eau proviennent soit de la fonte des neiges ou des glaciers, soit des eaux de pluie.

Les cours d'eau sont d'abord de simples *ruisseaux;* on les nomme *torrents* lorsqu'ils coulent très vite. Souvent le cours d'eau se précipite d'une certaine hauteur; alors il forme en tombant une *chute*, une *cascade* ou une *cataracte*. Les ruisseaux en grossissant deviennent des *fleuves* et des *rivières*.

ÉLOCUTION. — Dites de vive voix ce que vous savez sur les cours d'eau.

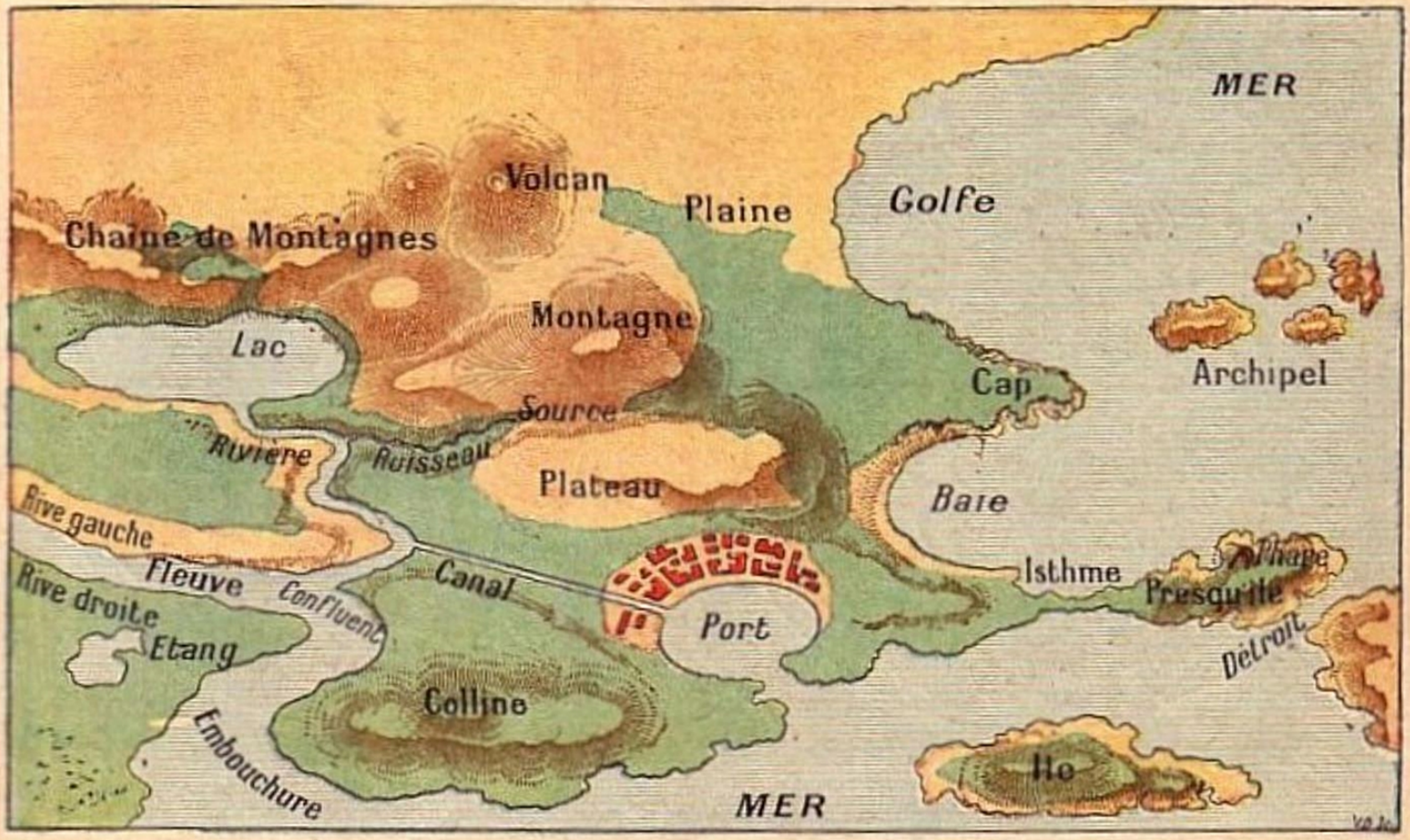

Les terres et les eaux représentées sur une carte.

TERMES GÉOGRAPHIQUES

LES TERRES

1. **Cap.** — Un *cap* est une partie de terre qui s'avance dans la mer.

Le cap est aussi appelé *promontoire*.
Un petit cap est appelé *pointe* ou *bec*.

2. **Ile.** — Une *île* est un espace de terre entouré d'eau de tous côtés.

Un groupe d'îles se nomme *archipel*.
Un petite île se nomme *îlot*.

3. **Presqu'île.** — Une *presqu'île* est une partie de terre entourée d'eau de tous les côtés, excepté d'un seul. (C'est *presque* une *île*.)

Une grande presqu'île se nomme *péninsule*.

4. **Isthme.** — Un *isthme* est une bande de terre resserrée entre deux mers.

Un isthme réunit deux terres.

5. **Plaine.** — Une *plaine* est un terrain plat et peu élevé.

Un *plateau* est une plaine élevée.

Questionnaire et Devoirs : 1. Qu'est-ce qu'un *cap?* — 2. Qu'est-ce qu'une *île?* — Qu'appelle-t-on *archipel? îlot?* — 3. Qu'est-ce qu'une *presqu'île?* — Comment appelle-t-on une grande presqu'île ? — 4. Qu'est-ce qu'un *isthme?* — 5. Qu'est-ce qu'une *plaine?* — Qu'est-ce qu'un *plateau?*

1. **Montagne.** — Une *montagne* est une grande élévation de terres et de rochers.

On appelle *chaîne de montagnes* une suite de montagnes qui se touchent. — Un *massif* est la réunion de plusieurs chaînes groupées les unes autour des autres.

2. **Volcan.** — Un *volcan* est une montagne qui lance, par une ouverture nommée *cratère*, des flammes et des matières fondues qu'on appelle *laves*.

3. **Désert.** — Un *désert* est une étendue de terre privée d'eau, stérile, peu ou pas habitée.

Questionnaire et Devoirs : 1. Qu'est-ce qu'une *montagne?* — Qu'appelle-t-on *chaîne de montagnes?* — Qu'est-ce qu'un *massif?* — 2. Qu'est-ce qu'un *volcan?* — 3. Qu'est-ce qu'un *désert?*

LECTURE et COPIE. — **Montagne et Vallée.**

Le bas de la montagne se nomme *pied* ou *base*.

La partie la plus élevée de la montagne s'appelle *sommet*, *faîte*, *cime* ou *crête*. Lorsque le sommet est pointu, on l'appelle *pic*, *aiguille* ou *dent*; lorsqu'il est arrondi, on le nomme *ballon* ou *dôme*.

Un passage à travers les montagnes se nomme *défilé*, *col*, *pas* ou *gorge*.

Une *colline* est une petite élévation de terre.

Une *vallée* est une partie de terrain entre des montagnes ou des collines. Une petite vallée se nomme *vallon*.

Élocution. — Comment nomme-t-on : le bas d'une montagne? la partie la plus élevée? — Comment appelle-t-on un passage dans la montagne? — Qu'appelle-t-on *colline?* — Qu'est-ce qu'une *vallée?*

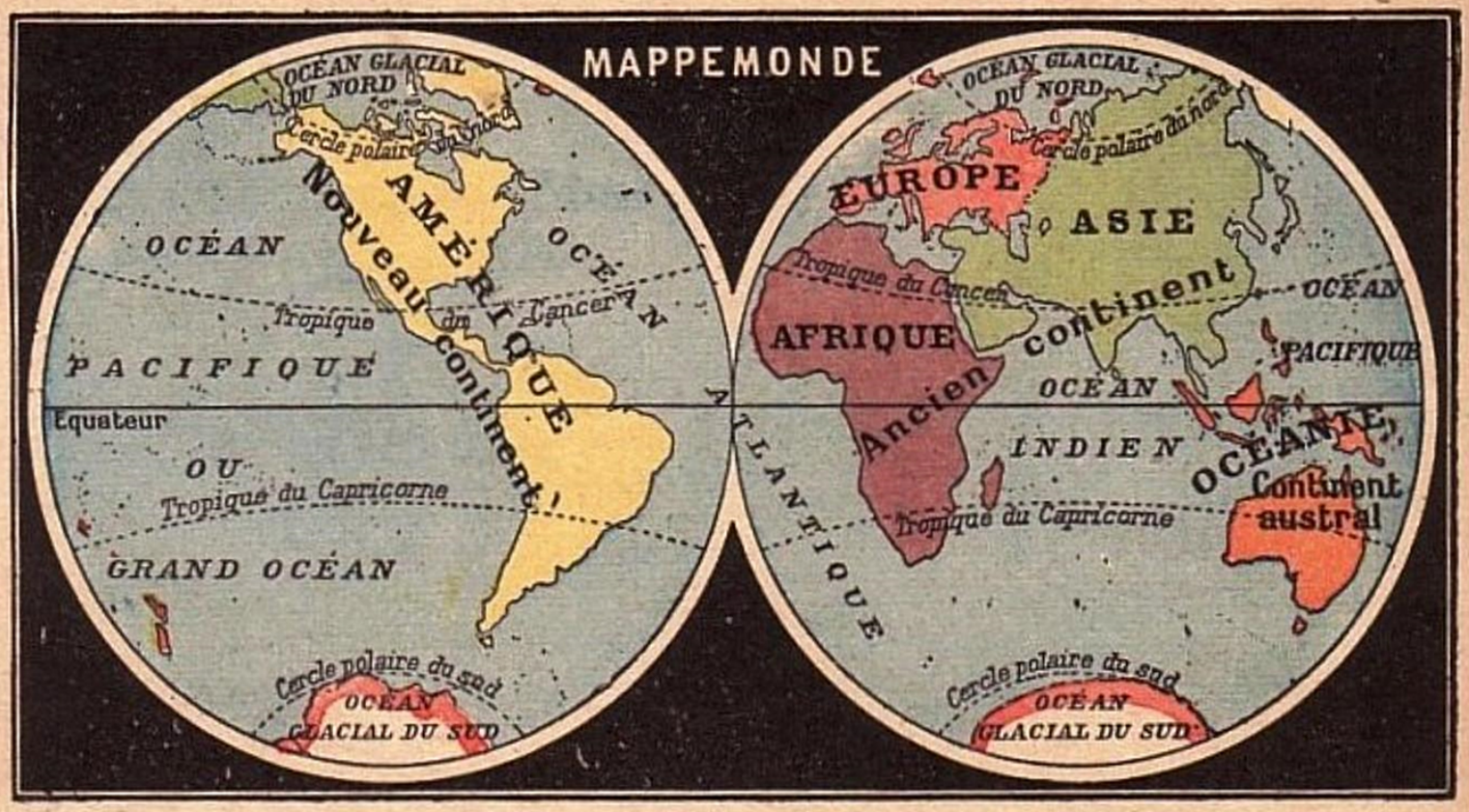

LECTURE. — Pour représenter la surface entière de la Terre, on suppose qu'on a coupé le globe terrestre en deux parties égales, du haut en bas, comme on couperait une orange. On place ces deux demi-boules, qu'on appelle *hémisphères*, l'une à côté de l'autre et l'on a ainsi la *mappemonde*, c'est-à-dire une carte représentant la surface du monde. A droite, c'est l'*hémisphère oriental;* à gauche, l'*hémisphère occidental.*

LES CINQ PARTIES DU MONDE

Les terres se divisent en cinq groupes qu'on appelle les *cinq parties du monde.*

1. Les cinq parties du monde sont : l'*Europe*, l'*Asie*, l'*Afrique*, l'*Amérique* et l'*Océanie.*

2. On appelle *continent* une grande étendue de terre que l'on peut parcourir sans traverser la mer.

QUESTIONNAIRE ET DEVOIRS : 1. Quelles sont les cinq parties du monde? — 2. Qu'appelle-t-on *continent?*

LECTURE ET COPIE. — **Les Continents.**

L'Europe, l'Asie et l'Afrique forment l'*ancien continent* ou *ancien monde,* ainsi appelé parce qu'il était connu des peuples anciens.

L'Amérique forme le *nouveau continent* ou *nouveau monde*, ainsi appelé parce qu'il n'a été découvert qu'en 1492 par Christophe Colomb.

En Océanie se trouve le *continent austral.*

ÉLOCUTION. — Quelles sont les parties du monde qui forment l'*ancien continent?* — Par quoi est formé le *nouveau continent?*

LES CINQ OCÉANS

Les eaux, qui recouvrent les trois quarts de la surface du globe terrestre, se divisent en cinq grands *océans.*

1. Les cinq grands océans sont : l'*océan Glacial du Nord*, l'*océan Glacial du Sud*, l'*océan Atlantique*, l'*océan Pacifique* ou *Grand Océan*, et l'*océan Indien.*

QUESTIONNAIRE ET DEVOIRS : 1. Nommez les cinq grands océans.

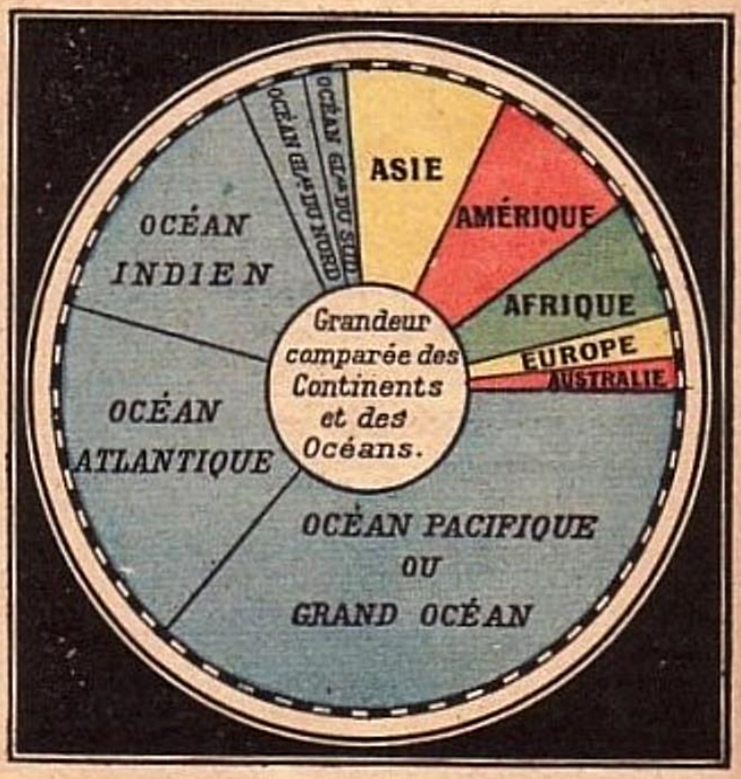



LECTURE ET COPIE. — **Races humaines.**

La Terre est habitée par quatre races humaines. Ces quatre races sont : la race *blanche*, la race *jaune*, la race *noire* et la race *rouge*.

La race *blanche* habite l'Europe, l'ouest de l'Asie, le nord de l'Afrique et l'Amérique.

La race *jaune* habite le centre et l'est de l'Asie.

La race *noire* ou *nègre* habite le centre et le sud de l'Afrique et une partie de l'Océanie.

La race *rouge*, qui disparaît tous les jours, habite une partie de l'Amérique.

ÉLOCUTION. — Dites quelles parties du monde habite chaque race.



LECTURE ET COPIE. — **Intérieur de la Terre.**

La Terre a une épaisseur (un *diamètre*) de 12.800 kilomètres. Mais elle n'est pas entièrement composée, comme à sa surface, de terre et d'eau. D'après certains savants, son intérieur serait occupé par des matières en feu. Une croûte terrestre, d'une épaisseur de 40 kilomètres, envelopperait ces matières en feu, comme le caoutchouc d'un ballon enveloppe l'air qui le gonfle. Ces matières enflammées s'échapperaient à grand bruit par les volcans et occasionneraient souvent des tremblements de terre.

ÉLOCUTION. — Redites de mémoire la lecture ci-dessus.



LECTURE ET COPIE. — 1° L'Europe est presque tout entière comprise dans la zone tempérée; les chaleurs et les froids n'y sont jamais excessifs. Bien arrosée par une infinité de cours d'eau, l'Europe produit les végétaux les plus variés : on y cultive les céréales, la pomme de terre, le lin, le chanvre, la vigne, le houblon, le tabac, le riz, une foule d'arbres fruitiers, à côté desquels poussent un grand nombre d'arbres forestiers.

2° On trouve en Europe tous les animaux domestiques. Les animaux sauvages qu'on y rencontre sont : l'ours, le loup, le renard, le sanglier, le cerf, le chamois, l'élan, le blaireau, la marmotte et quelques autres petits quadrupèdes. Les oiseaux y sont en grand nombre; les deux plus grands sont l'aigle et le vautour. Comme minéraux, on trouve : la houille, le fer, le cuivre, l'étain, le plomb, le zinc, l'argent, l'or, le soufre, le marbre.

L'EUROPE

439 millions d'habitants (Européens, Européennes).

1. **Bornes.** — L'Europe est bornée au nord par l'*océan Glacial;* à l'est par l'*Asie;* au sud par la *Méditerranée;* à l'ouest par l'*océan Atlantique.*

2. **Mers.** — L'Europe est baignée par trois grandes mers qui sont : l'*océan Glacial du Nord*, l'*océan Atlantique* et la *Méditerranée.*

L'océan Glacial forme la mer *Blanche.*

L'océan Atlantique forme la mer *Baltique*, la mer du *Nord* et la *Manche.*

La Méditerranée forme la mer *Adriatique*, l'*Archipel*, la mer *Noire* et la mer d'*Azov.*

La mer *Caspienne*, à l'est, est un grand lac salé.

3. **Golfes.** — Les principaux golfes de l'Europe sont : les golfes de *Bothnie* et de *Finlande* formés par la mer Baltique; le golfe de *Gascogne* formé par l'océan Atlantique; le golfe du *Lion* formé par la Méditerranée.

QUESTIONNAIRE ET DEVOIRS : 1. Quelles sont les bornes de l'Europe? — 2. Nommez les grandes mers de l'Europe. — Quelle mer forme l'océan Glacial? — Quelles mers forme l'Atlantique? la Méditerranée? — 3. Nommez les golfes de l'Europe et dites par quelles mers ils sont formés.

1. **Détroits.** — Les principaux détroits de l'Europe sont : le *Pas de Calais*, entre la France et l'Angleterre; le détroit de *Gibraltar*, entre l'Espagne et l'Afrique.

2. **Caps.** — Les principaux caps de l'Europe sont : le cap *Nord*, au nord de la Norvège; le cap *Finisterre*, à l'ouest de l'Espagne; le cap *Matapan*, au sud de la Grèce.

3. **Iles.** — Les îles de l'Europe sont : 1° dans l'océan Atlantique: l'*Islande;* les *îles Britanniques* ou *Angleterre;* 2° dans la Méditerranée: la *Corse*, à la France; la *Sardaigne* et la *Sicile*, à l'Italie.

4. **Presqu'îles.** — Il y a en Europe quatre grandes presqu'îles, qui sont : la *Suède* et la *Norvège;* l'*Espagne* et le *Portugal;* l'*Italie;* la presqu'île des *Balkans* (Serbie-Croatie-Slovénie, Bulgarie, Grèce, Turquie, etc.).

QUESTIONNAIRE ET DEVOIRS : 1. Citez les détroits de l'Europe, et dites entre quelles terres ils se trouvent. — 2. Quels sont les caps de l'Europe? — 3. Nommez les îles de l'Europe, et dites à qui elles appartiennent. — 4. Quelles sont les presqu'îles de l'Europe?

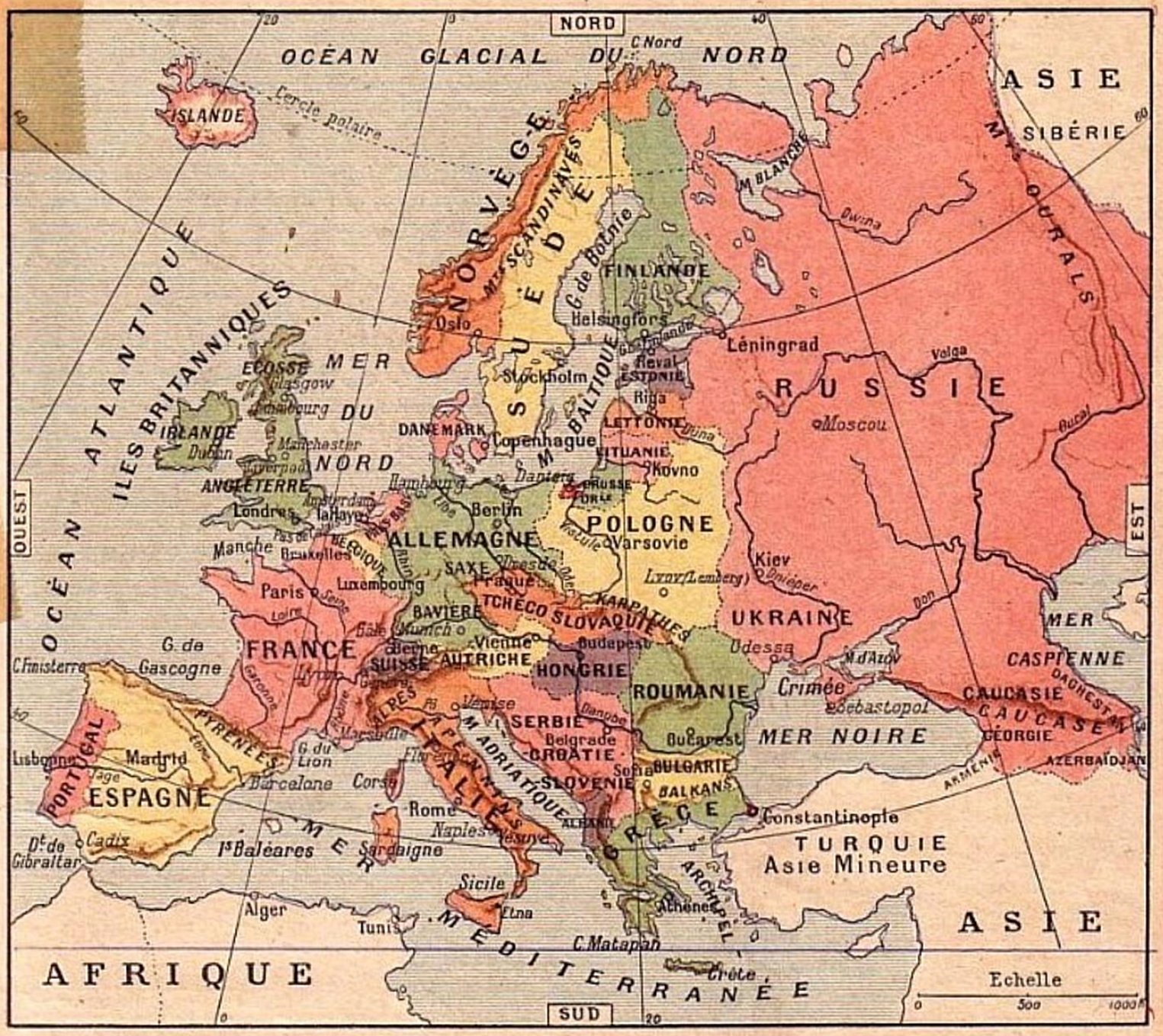

Carte de l'Europe. — L'Europe, située dans l'ancien continent, est la plus petite des cinq parties du monde. Son étendue est dix-neuf fois plus grande que celle de la France.

1. **Montagnes.** — Les principales chaînes de montagnes de l'Europe sont : les monts *Scandinaves*, entre la Suède et la Norvège ; les monts *Ourals*, entre l'Europe et l'Asie ; le *Caucase*, entre la mer Noire et la mer Caspienne ; les monts *Karpathes*, en Hongrie, Pologne et Tchécoslovaquie ; les monts *Balkans*, dans la presqu'île du même nom ; les *Alpes*, entre la France, l'Italie, la Suisse et l'Autriche ; les *Apennins*, en Italie ; les *Pyrénées*, entre la France et l'Espagne.

2. **Volcans.** — Les volcans de l'Europe sont : le *Vésuve* en Italie et l'*Etna* en Sicile.

Questionnaire et Devoirs : 1. Nommez les montagnes de l'Europe et dites où elles se trouvent. — 2. Quels sont les volcans de l'Europe ?

1. **Fleuves.** — Les principaux fleuves de l'Europe sont : la *Duna* et la *Vistule*, qui se jettent dans la mer Baltique ; l'*Elbe* et le *Rhin*, qui se jettent dans la mer du Nord ; la *Seine*, qui se jette dans la Manche ; la *Loire*, la *Garonne* et le *Tage*, qui se jettent dans l'océan Atlantique.

L'*Ébre* et le *Rhône*, qui se jettent dans la Méditerranée ; le *Pô*, qui se jette dans la mer Adriatique ; le *Danube* et le *Dniéper*, qui se jettent dans la mer Noire ; le *Don*, qui se jette dans la mer d'Azov ; le *Volga*, qui se jette dans la mer Caspienne.

Questionnaire et Devoirs : 1. Quels sont les fleuves qui se jettent : Dans la mer Baltique ? — Dans la mer du Nord ? — Dans la Manche ? — Dans l'Atlantique ? — Dans la Méditerranée ? — Dans l'Adriatique ? — Dans la mer Noire ? — Dans la mer d'Azov ? — Dans la mer Caspienne ?

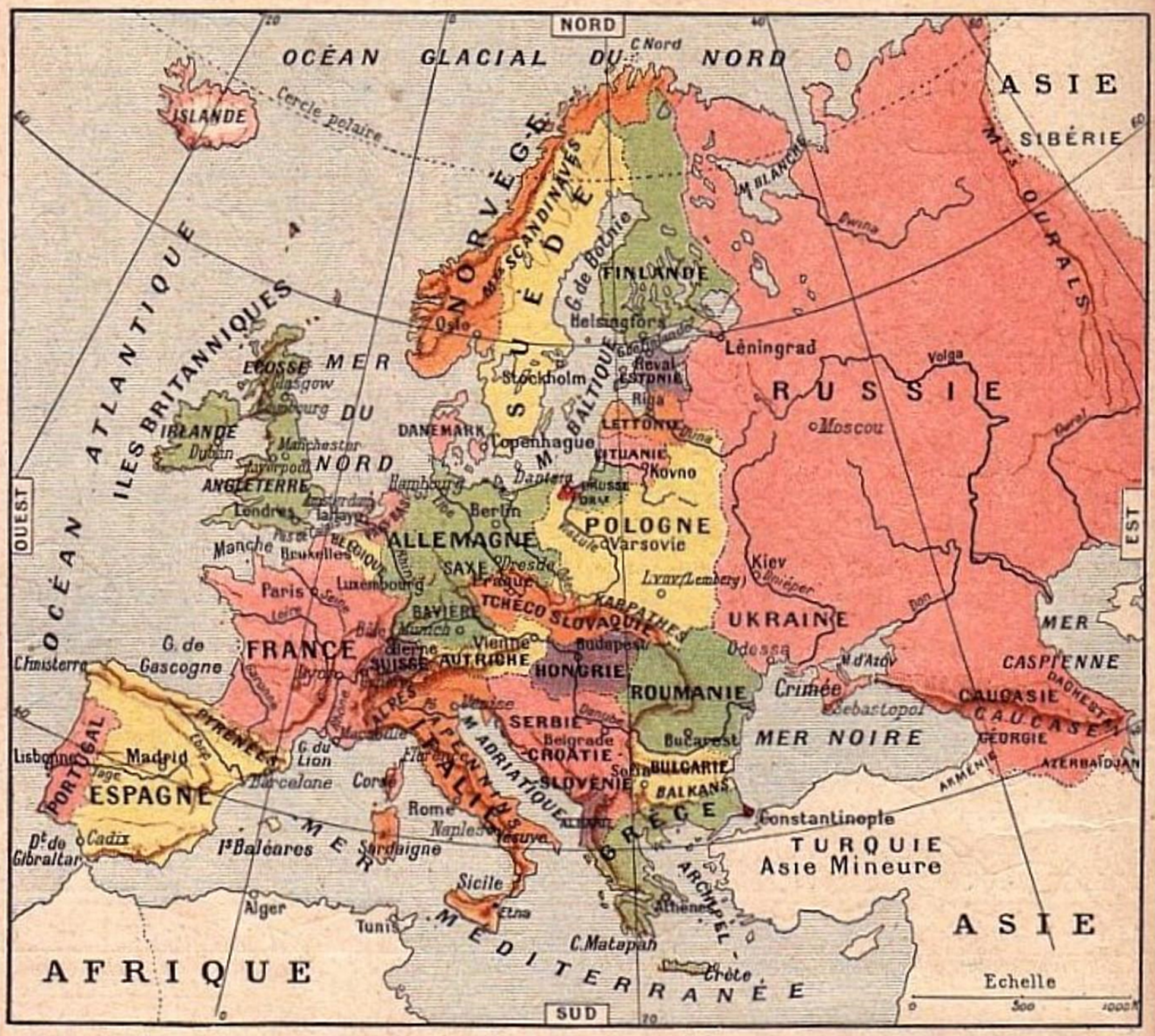

Carte de l'Europe. — L'Europe est divisée en *États*. Chacun de ces États a une langue et des coutumes particulières.

ÉTATS DE L'EUROPE

1. L'Europe se divise en 26 *États*, dont 9 au nord, 9 au milieu et 8 au sud.

2. **États du nord** : Les ILES BRITANNIQUES ou ANGLETERRE, cap. *Londres*. Le DANEMARK, cap. *Copenhague*. La SUÈDE, cap. *Stockholm*. La NORVÈGE, cap. *Oslo*. La RUSSIE, cap. *Léningrad*. La FINLANDE, cap. *Helsingfors*. L'ESTONIE, cap. *Reval* (*Tallinn*). La LETTONIE, cap. *Riga*. La LITUANIE, cap. *Kovno* (*Kaunas*).

3. **États du milieu** : La FRANCE, cap. *Paris*. La BELGIQUE, cap. *Bruxelles*. La HOLLANDE ou PAYS-BAS, cap. *La Haye*. L'ALLEMAGNE, cap. *Berlin*. La TCHÉCOSLOVAQUIE, cap. *Prague*. La POLOGNE, cap. *Varsovie*. La HONGRIE, cap. *Budapest*. L'AUTRICHE, cap. *Vienne*. La SUISSE, cap. *Berne*.

4. **États du sud** : Le PORTUGAL, cap. *Lisbonne*. L'ESPAGNE, cap. *Madrid*. L'ITALIE, cap. *Rome*. La SERBIE-CROATIE-SLOVÉNIE ou YOUGOSLAVIE, cap. *Belgrade*. La ROUMANIE, cap. *Bucarest*. La BULGARIE, cap. *Sofia*. La TURQUIE D'EUROPE, ville pr. *Constantinople*. La GRÈCE, cap. *Athènes*.

QUESTIONNAIRE ET DEVOIRS. 1. En combien d'États se divise l'Europe ? — 2. Nommez, avec leur capitale, les États du nord. — 3. Du milieu. — 4. Du sud.

LECTURE ET COPIE. — Les États.

Un *État* est une contrée dont tous les habitants sont soumis à un même gouvernement.

Les États sont ou des *républiques* ou des *empires*, ou des *royaumes* ou des *principautés* ou des *duchés*.

Une république est gouvernée par un *président*, assisté de ministres et de députés ; un empire est gouverné par un *empereur* ; un royaume par un *roi* ; une principauté par un *prince* ; un duché par un *duc*.

ÉLOCUTION. — Qu'est-ce qu'un État ? — Par qui est gouverné un État ?



LECTURE ET COPIE. — Grâce à l'activité de ses habitants, l'Europe s'est enrichie par l'industrie et le commerce. Elle possède, dans les autres parties du monde, de vastes territoires qu'on appelle *colonies*.

L'industrie européenne est la première du monde. On fabrique en Europe de belles *étoffes de soie*, de *coton*, de *laine;* on y fait des objets de *bijouterie* remarquables. On y voit de superbes usines où l'on construit des machines puissantes. L'Europe est sillonnée d'une infinité de routes et de nombreuses lignes de chemins de fer; des ponts magnifiques sont jetés sur les cours d'eau; ses champs sont presque partout bien cultivés; ses mers sont parcourues par une foule de navires, et sa navigation intérieure est facilitée par un grand nombre de *canaux*.

LECTURE. — **Les États de l'Europe.**

ÉTATS	NOMBRE D'HABITANTS	NOM DES HABITANTS
Allemagne (*république*)	60.900.000	Allemands.
Angleterre (*royaume*)	45.600.000	Anglais.
Autriche (*république*)	6.413.000	Autrichiens.
Belgique (*royaume*)	7.416.000	Belges.
Bulgarie (*royaume*)	5.120.000	Bulgares.
Danemark (*royaume*)	2.950.000	Danois.
Espagne (*royaume*)	20.784.000	Espagnols.
Estonie (*république*)	1.750.000	Estoniens.
Finlande (*république*)	3.332.000	Finlandais.
France (*république*)	41.476.000	Français.
Grèce (*république*)	6.000.000	Grecs.
Hollande (*royaume*)	6.830.000	Hollandais.
Hongrie (*république*)	8.450.000	Hongrois.
Italie (*royaume*)	41.000.000	Italiens.
Lettonie (*république*)	1.730.000	Lettons.
Lituanie (*république*)	4.200.000	Lituaniens.
Norvège (*royaume*)	2.640.000	Norvégiens.
Pologne (*république*)	28.250.000	Polonais.
Portugal (*république*)	5.550.000	Portugais.
Roumanie (*royaume*)	16.200.000	Roumains.
Russie (*république*)	75.000.000	Russes.
Serbie - Croatie - Slovénie (*royaume*)	13.000.000	Serbes, Croates, Slovènes.
Suède (*royaume*)	5.850.000	Suédois.
Suisse (*république*)	3.850.000	Suisses.
Tchécoslovaquie (*républ.*)	14.000.000	Tchécoslovaques
Turquie d'Europe (*républ.*)	1.400.000	Turcs.

LECTURE ET COPIE. — **Les Grandes puissances.**

On donne le nom de *grande puissance* à l'État qui a un grand nombre d'habitants et qui possède une armée et une marine importantes.

En Europe, il y a cinq grandes puissances, qui sont: la *France*, l'*Angleterre*, la *Russie*, l'*Allemagne* et l'*Italie*.

ÉLOCUTION. — Qu'appelle-t-on *grande puissance?* — Quelles sont les grandes puissances de l'Europe?

LECTURE ET COPIE. — **Les grandes villes de l'Europe.**

Londres, la plus grande ville d'Europe, a plus de 4 millions d'habitants. *Paris*, la ville la plus belle et la plus riche du monde, a près de 3 millions d'habitants. *Berlin* a près de 4 millions d'habitants. *Léningrad*, *Moscou*, *Vienne*, ont plus de 1 million d'habitants. *Liverpool*, *Manchester*, *Glasgow*, *Varsovie*, *Bruxelles*, *Amsterdam*, *Hambourg*, *Budapest*, *Madrid*, *Barcelone*, *Rome*, *Naples*, *Milan*, *Constantinople*, *Marseille* et *Lyon* ont plus d'un demi-million d'habitants.

ÉLOCUTION. — Répétez de vive voix cette lecture, en montrant sur la carte chacune des villes que vous nommez.



LECTURE ET COPIE. — 1° Le nord de l'Asie est occupé par les vastes plaines de la Sibérie appelées *steppes*, où règne un froid très rigoureux; au centre se trouve le Pamir, plateau très élevé qu'on appelle le *toit du monde*, et auquel vient se rattacher l'Himalaya, la plus haute chaîne de montagnes de la terre. De ce grand plateau sortent de longs et larges fleuves.

Le sud de l'Asie jouit d'un climat chaud; il produit en général des arbres et des plantes remarquables.

2° On trouve en Asie les pierres précieuses, l'or, l'argent, le cuivre, la houille, les céréales, le riz, la gomme, le caoutchouc, le bambou, le cocotier, la canne à sucre, le camphre, le thé, l'opium, le café, les dattes, les épices, le coton, le bananier, le mûrier et les bois précieux. On y rencontre le lion, le tigre, la panthère, l'éléphant, le rhinocéros, l'ours, le loup, le renard, l'hermine, le chameau et les animaux domestiques, le crocodile et une foule de singes, d'oiseaux et de serpents.

L'ASIE

800 millions d'habitants (Asiatiques).

1. **Bornes.** — L'Asie est bornée au nord, par l'*océan Glacial;* à l'est, par l'*océan Pacifique;* au sud, par l'*océan Indien;* à l'ouest, par l'*Europe*, la *Méditerranée* et la *mer Rouge*.

2. **Mers.** — L'Asie est baignée par quatre grandes mers, qui sont : l'*océan Glacial du nord*, l'*océan Pacifique*, l'*océan Indien* et la *Méditerranée*.

L'océan Pacifique forme la mer du *Japon* et la mer de *Chine*.

L'océan Indien forme la mer d'*Oman* et la mer *Rouge*.

3. **Golfe.** — Le golfe principal de l'Asie est le golfe du *Bengale* formé par l'océan Indien.

4. **Détroits.** — Les détroits de l'Asie sont le détroit de *Behring*, entre l'Asie et l'Amérique ; le détroit de *Malacca*, entre l'Asie et l'Océanie.

QUESTIONNAIRE ET DEVOIRS : 1. Quelles sont les *bornes* de l'Asie? — 2. Par quelles grandes *mers* est baignée l'Asie? — Quelles mers forme l'océan Pacifique? — Quelles mers forme l'océan Indien? — 3. Quel est le principal *golfe* de l'Asie? — 4. Nommez les *détroits* de l'Asie.

1. **Caps.** — Les caps de l'Asie sont : le cap *Nord-Est*, au nord de la Sibérie ; le cap *Oriental*, à l'est de la Sibérie ; le cap *Romania*, au sud de l'Indo-Chine ; le cap *Comorin*, au sud de l'Hindoustan.

2. **Iles.** — Les principales îles de l'Asie sont : 1° dans l'océan Pacifique : les îles du *Japon* et l'île *Formose*, au Japon ; 2° dans l'océan Indien : l'île de *Ceylan*, à l'Angleterre.

3. **Presqu'îles.** — Les presqu'îles de l'Asie sont : l'*Indo-Chine;* l'*Hindoustan*, à l'Angleterre ; l'*Arabie* et l'*Asie Mineure*, à la Turquie.

4. **Isthme.** — L'isthme de *Suez*, percé par un canal en 1869, unit l'Asie à l'Afrique.

5. **Lacs.** — Les grands lacs d'Asie sont : le lac d'*Aral* ou *mer d'Aral* et le lac *Baïkal*, en Sibérie.

QUESTIONNAIRE ET DEVOIRS : 1. Citez les *caps* de l'Asie. — 2. Nommez les *îles* de l'Asie. — 3. Quelles sont les *presqu'îles* de l'Asie? — 4. Où se trouve l'*isthme* de Suez? — Quand a-t-il été percé? — 5. Citez les *lacs* de l'Asie.

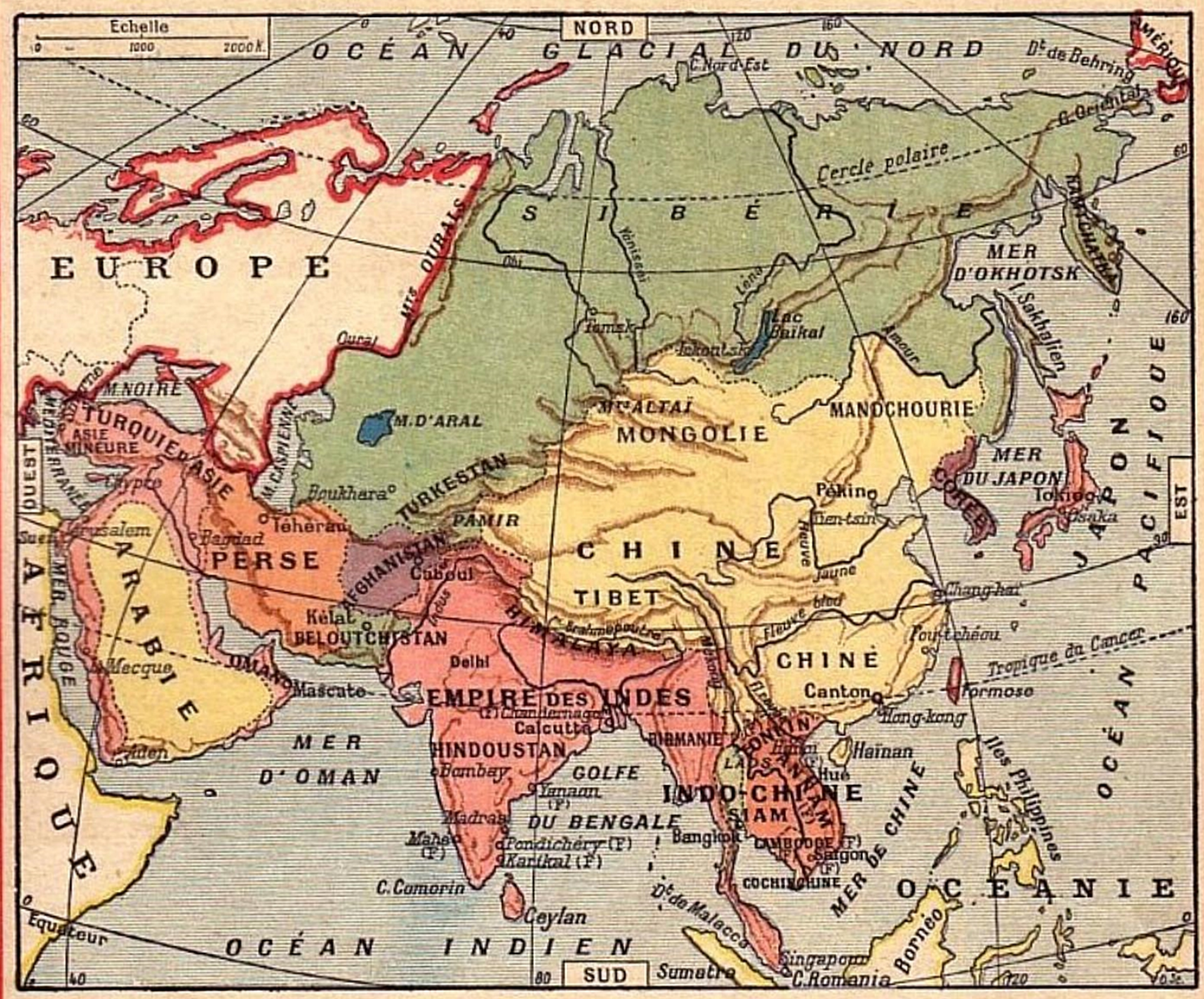

Carte de l'Asie. — L'Asie, située dans l'ancien continent, est la plus grande des cinq parties du monde. Son étendue est quatre fois et demie plus grande que celle de l'Europe, et quatre-vingts fois plus grande que celle de la France.

1. **Montagnes.** — Les chaînes de montagnes de l'Asie sont : les monts *Altaï* en Chine et les monts *Himalaya* entre la Chine et l'Hindoustan.

Les monts *Himalaya* forment la plus haute chaîne de montagnes du monde. Le pic le plus élevé, le *Gaurisankar*, a 8.840 mètres d'altitude.

2. **Fleuves.** — Les grands fleuves de l'Asie sont : l'*Obi*, l'*Yénisséi* et la *Léna*, qui se jettent dans l'océan Glacial ; l'*Amour*, le fleuve *Jaune*, le fleuve *Bleu*, le fleuve *Rouge* et le *Mékong*, qui se jettent dans l'océan Pacifique ; le *Brahmapoutre*, le *Gange* et l'*Indus*, qui se jettent dans l'océan Indien.

QUESTIONNAIRE ET DEVOIRS : 1. Quelles sont les chaînes de *montagnes* de l'Asie ? — Quelles sont les montagnes les plus élevées du monde ? — Quel est le pic le plus haut ? — 2. Nommez les *fleuves* de l'Asie et dites dans quelles mers ils se jettent.

CONTRÉES DE L'ASIE

Les contrées de l'Asie sont :

La SIBÉRIE (à la Russie), cap. *Irkoutsk*. — La TURQUIE D'ASIE, cap. *Angora*. — La PERSE, cap. *Téhéran*. — L'AFGHANISTAN, cap. *Caboul*. — La CHINE, cap. *Pékin*. — L'EMPIRE DU JAPON, cap. *Tokio*. — L'ARABIE, cap. *La Mecque*. — Le BÉLOUTCHISTAN, cap. *Kélat*. — L'EMPIRE DES INDES (à l'Angleterre), cap. *Delhi*. — L'INDOCHINE (divisée en plusieurs États).

QUESTIONNAIRE ET DEVOIRS : Nommez les États ou contrées de l'Asie.

Possessions françaises. — La France possède en Asie : 1° dans l'Hindoustan, cinq villes : *Pondichéry*, *Chandernagor*, *Mahé*, *Yanaon* et *Karikal* ; 2° dans l'Indo-Chine : le *Tonkin*, l'*Annam*, le *Cambodge*, la *Cochinchine* et le *Laos*. (*V. page 30.*)

ÉLOCUTION. — Quelles sont les possessions françaises en Asie ?



LECTURE ET COPIE. — L'Afrique est située en grande partie dans la région torride. On y trouve des déserts immenses, de longs fleuves peuplés de crocodiles et d'hippopotames; on y voit de vastes forêts remplies de serpents, de singes et d'oiseaux aux couleurs éclatantes. On y rencontre l'éléphant, le rhinocéros, la girafe, le buffle, le zébu, le lion, le léopard, la panthère, l'hyène, le zèbre, l'antilope, le chacal, le dromadaire, le gorille, l'autruche, les perroquets, le grand serpent python. On trouve en Afrique la poudre d'or, les diamants, le cuivre, le plomb, la houille; on y voit des arbres gigantesques tels que le baobab, ainsi que l'olivier, l'oranger, le caféier, le poivrier, le dattier, le palmier, le cotonnier, le cocotier, la canne à sucre, etc.

L'AFRIQUE

180 millions d'habitants (Africains, Africaines).

1. **Bornes** et **Mers.** — L'Afrique est bornée : au nord, par la *Méditerranée;* à l'est, par la *mer Rouge* et l'*océan Indien*, au sud et à l'ouest, par l'*océan Atlantique*.

2. **Golfe.** — Le golfe de *Guinée*, formé par l'océan Atlantique.

3. **Détroit.** — Le détroit de *Gibraltar*, entre l'Espagne et l'Afrique.

4. **Caps.** — Les principaux caps de l'Afrique sont : le cap *Vert*, à l'ouest du Sénégal; le cap de *Bonne-Espérance*, au sud de l'Afrique; le cap *Gardafui*, à l'est.

5. **Lacs.** — Les grands lacs de l'Afrique sont : le lac *Tchad*, dans le Soudan; les lacs *Victoria*, *Tanganyika* et *Nyassa*, au sud-est.

QUESTIONNAIRE ET DEVOIRS : 1. Quelles sont les *bornes* de l'Afrique ? — 2. Par quoi est formé le *golfe* de Guinée ? — 3. Où se trouve le *détroit* de Gibraltar ? — 4. Citez les *caps* de l'Afrique. — 5. Nommez les *lacs*.

1. **Iles.** — Les îles de l'Afrique sont : 1° dans l'océan Atlantique, les *Açores* et l'île *Madère*, au Portugal ; les *Canaries*, à l'Espagne, l'île *Sainte-Hélène*, à l'Angleterre.

C'est à Sainte-Hélène que mourut Napoléon Ier en 1821.

2° Dans l'océan Indien : *Madagascar*, les *Comores* et la *Réunion*, à la France ; l'île *Maurice*, à l'Angleterre.

Isthme. — L'isthme de *Suez*, percé par un canal en 1869, joint l'Afrique à l'Asie.

2. **Montagnes.** — La chaîne de l'*Atlas*, qui s'étend en Algérie et en Tunisie.

3. **Fleuves.** — Le *Nil*, qui se jette dans la mer Méditerranée ; le *Niger*, le *Congo* et l'*Orange*, qui se jettent dans l'océan Atlantique ; le *Zambèze*, qui se jette dans l'océan Indien.

QUESTIONNAIRE ET DEVOIRS : 1. Citez les *îles* de l'Afrique situées dans l'océan Atlantique et dites à qui elles appartiennent. — Citez les *îles* de l'Afrique dans l'océan Indien, et dites à qui elles appartiennent. — 2. Où se trouve la *chaîne* de l'Atlas ? — 3. Nommez les fleuves d'Afrique.

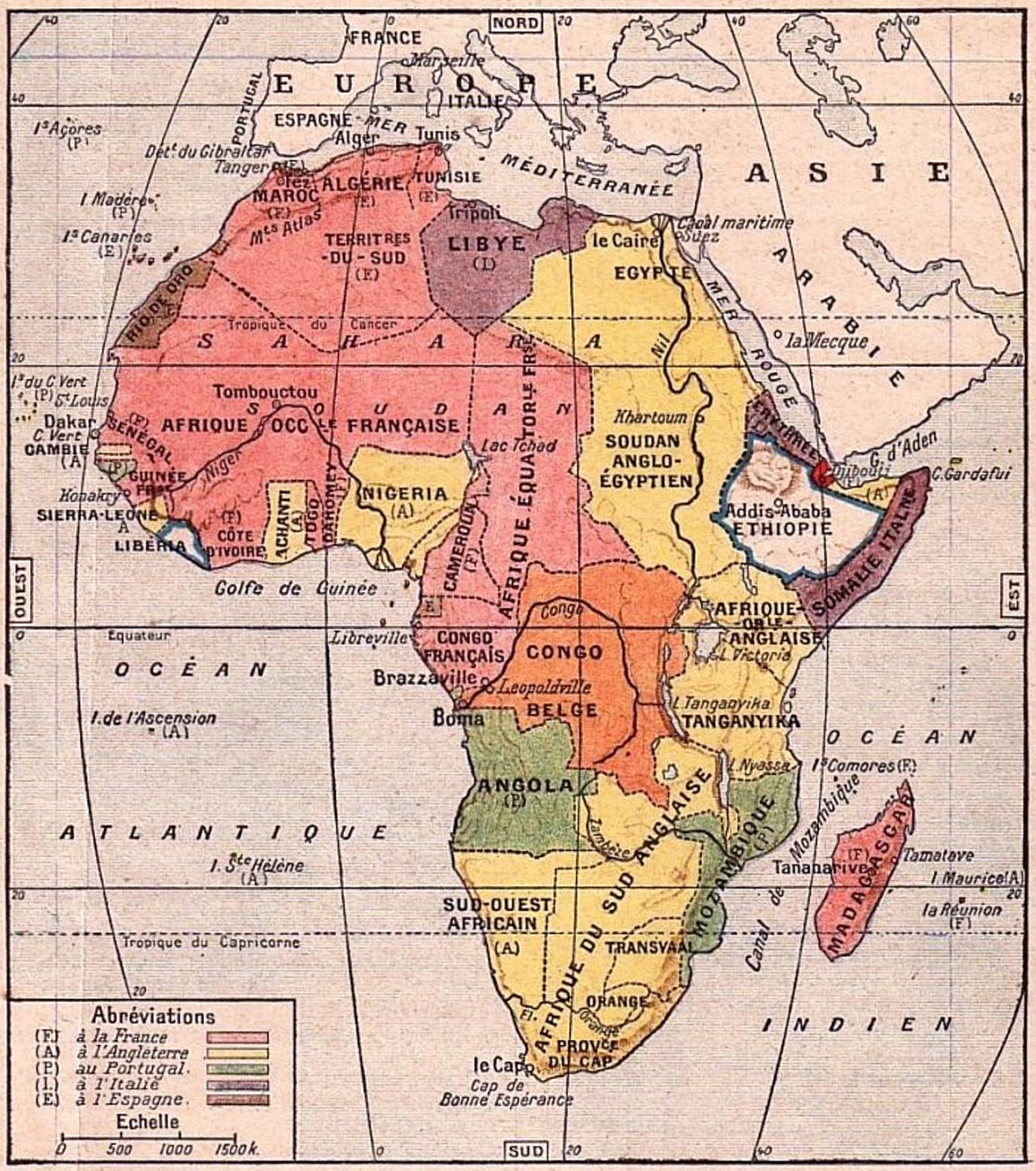

Carte de l'Afrique. — L'Afrique est située dans l'ancien continent. Son étendue est trois fois plus grande que celle de l'Europe et cinquante-sept fois plus grande que celle de la France. L'Afrique appartient presque tout entière aux Etats de l'Europe.

CONTRÉES DE L'AFRIQUE

Les principales contrées de l'Afrique sont :

L'Egypte, cap. *Le Caire.* — La Tunisie, cap. *Tunis.* — L'Algérie, cap. *Alger.* — Le Maroc, villes princ. *Fez, Rabat,* etc. — La Libye, cap. *Tripoli.* — L'Ethiopie, cap. *Addis-Ababa.* — Le Congo belge, cap. *Boma.* — L'Afrique du sud anglaise (Le Cap, Transvaal, Orange, etc.), cap. *Le Cap.* — Le Sahara ou *Grand Désert,* le Soudan, le Mozambique, etc.

Questionnaire et Devoirs : Nommez les contrées de l'Afrique.

Possessions françaises. — La France possède en Afrique : l'*Algérie,* l'Afrique occidentale française (*Sénégal, Guinée, Dahomey, Côte d'Ivoire*), l'Afrique équatoriale française (*Congo*), *Madagascar,* les *Comores,* la *Réunion, Djibouti.* La *Tunisie* et le *Maroc* sont sous son protectorat. (*V. p. 30.*)

Élocution. — Quelles sont les possessions françaises en Afrique ?



LECTURE ET COPIE. — L'Amérique est près de quatre fois plus grande que l'Europe, et soixante-dix fois plus grande que la France. L'Amérique est sillonnée par des fleuves énormes; des prairies immenses occupent la région du nord; le sud renferme d'immenses forêts contenant des quantités de singes, d'oiseaux et de serpents. On trouve en Amérique l'or, l'argent, les diamants et le cuivre. On y voit le cotonnier, le cocotier, le palmier, le tabac, les épices, le caoutchouc, le café, le quinquina, la vanille, la canne à sucre, à côté de champs de blé et d'autres céréales, et d'autres bois précieux. On y rencontre le caïman, le tamanoir, l'ours, le jaguar, le cougouar, le tapir, le lama, le bison, le condor, les perroquets, le boa, etc., et tous les animaux domestiques.

Possessions françaises. — La France possède en Amérique : la *Guyane* (cap. *Cayenne*), la *Martinique*, la *Guadeloupe* avec ses dépendances, enfin deux petites îles près de Terre-Neuve : *Saint-Pierre* et *Miquelon*.

L'AMÉRIQUE

180 millions d'habitants (Américains, Américaines).

On divise l'Amérique en deux parties : l'*Amérique du Nord* et l'*Amérique du Sud*.

1. **Bornes et mers.** — L'Amérique est bornée : au nord, par l'*océan Glacial;* à l'est, par l'*océan Atlantique;* à l'ouest, par l'*océan Pacifique*.

L'océan Atlantique forme la *mer des Antilles*.

2. **Golfes.** — La *baie d'Hudson*, formée par l'océan Glacial; le *golfe du Mexique*, formé par la mer des Antilles.

3. **Détroits.** — Le détroit de *Behring*, entre l'Amérique et l'Asie; le détroit de *Magellan*, au sud de l'Amérique.

4. **Isthme.** — L'isthme de *Panama*, percé par un canal en 1914, unit les deux Amériques.

5. **Caps.** — Le cap *Saint-Roch*, à l'est de l'Amérique du Sud; le cap *Horn*, au sud.

QUESTIONNAIRE ET DEVOIRS : 1. Quelles sont les *bornes* de l'Amérique? — Quelle *mer* forme l'océan Atlantique? — 2. Citez les *golfes* de l'Amérique et dites par quelles mers ils sont formés? — 3. Où se trouvent les *détroits* de Behring? de Magellan? — 4. Où se trouve l'*isthme* de Panama? — 5. Citez les caps de l'Amérique.

1. **Iles.** — Les îles de l'Amérique sont : au nord, le *Groenland;* l'île de *Terre-Neuve*, à l'Angleterre; les *Grandes Antilles* (Cuba, Haïti, la Jamaïque, Porto-Rico) et les *Petites Antilles* (la Guadeloupe, la Martinique, à la France, etc.); au sud, l'archipel *Magellan* ou *Terre de Feu*.

2. **Montagnes.** — Deux grandes chaînes de montagnes sillonnent l'Amérique : les *montagnes Rocheuses*, dans l'Amérique du Nord; la *Cordillère des Andes*, dans l'Amérique du Sud.

3. **Fleuves.** — Les principaux fleuves sont : 1° dans l'Amérique du Nord : le *Saint-Laurent* et le *Mississipi;* 2° dans l'Amérique du Sud : l'*Amazone* et le *rio de la Plata*.

Tous ces fleuves se jettent dans l'océan Atlantique.

QUESTIONNAIRE ET DEVOIRS : 1. Nommez les *îles* de l'Amérique? — 2. Nommez les montagnes de l'Amérique? — 3. Citez les fleuves de l'Amérique et dites dans quel océan ils se jettent.

CONTRÉES DE L'AMÉRIQUE

Les contrées de l'Amérique du Nord sont: Le CANADA (à l'Angleterre), cap. *Ottawa*. — Les ÉTATS-UNIS, cap. *Washington*.

Villes principales: *New-York, Chicago, San-Francisco.*

Le MEXIQUE, cap. *Mexico*.

Au sud du Mexique se trouvent plusieurs petites républiques.

Les contrées de l'Amérique du Sud sont: Le BRÉSIL, cap. *Rio-Janeiro*. — Le PÉROU, cap. *Lima*. — La RÉPUBLIQUE ARGENTINE, cap. *Buenos-Ayres*. — Le CHILI, cap. *Santiago*.

Il faut encore citer: le VENEZUELA, cap. *Caracas*; la COLOMBIE, cap. *Bogota*; l'ÉQUATEUR, cap. *Quito*; la BOLIVIE, cap. *La Paz*; le PARAGUAY, cap. *Assomption*; l'URUGUAY, cap. *Montevideo*; les GUYANES (anglaise et hollandaise); la GUYANE française, cap. *Cayenne*.

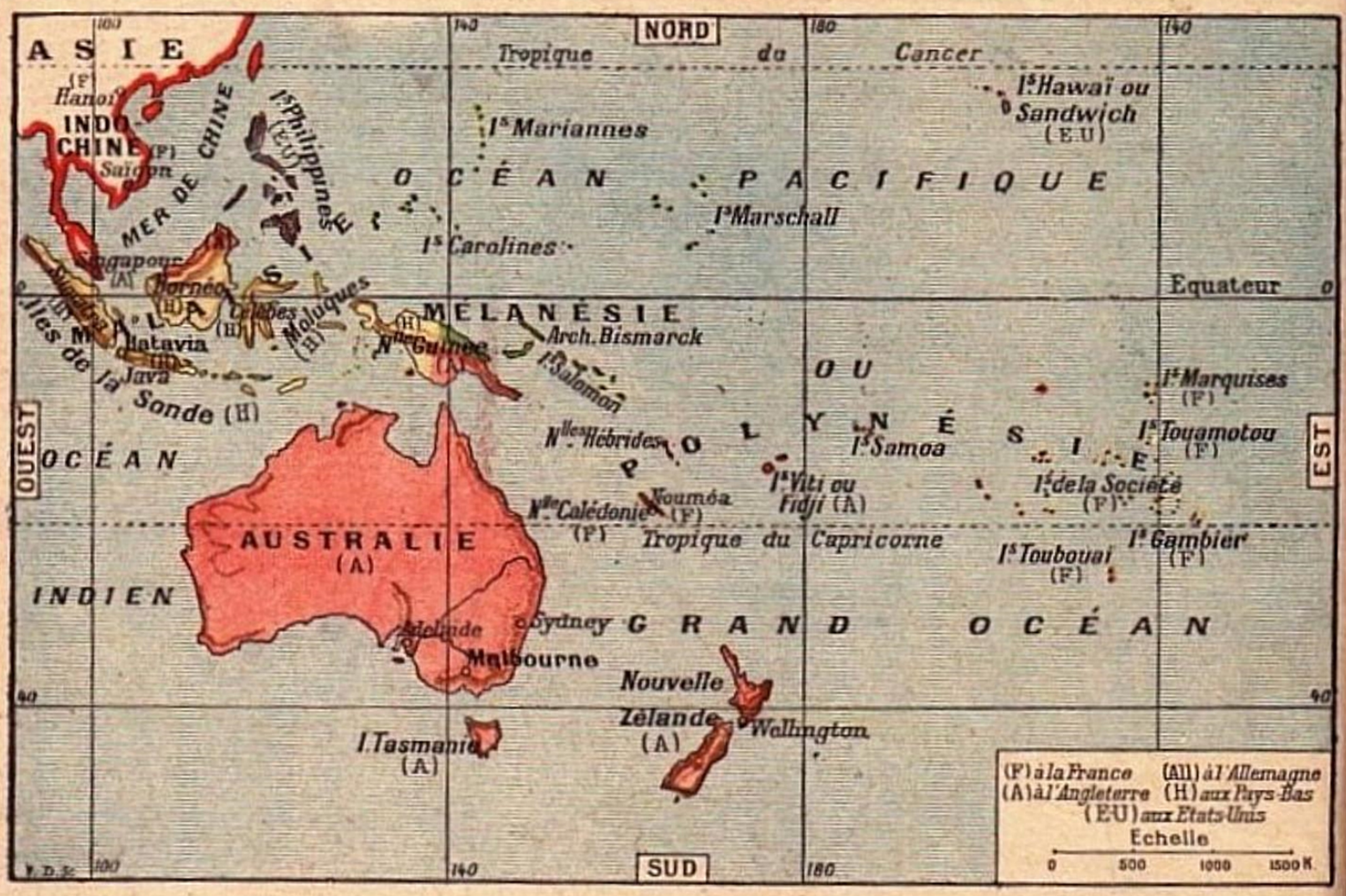

LECTURE ET COPIE. — L'Océanie comprend une multitude d'îles et un continent, l'*Australie*. Son étendue terrestre est à peu près vingt fois celle de la France. On y trouve beaucoup de mines d'or, de fer, de cuivre, de houille, et des pierres précieuses. Les principales plantes sont : le muscadier, le giroflier, le bananier, le cocotier, l'arbre à pain et beaucoup d'arbres en bois précieux. Comme animaux, on y voit : l'éléphant, le tigre, le rhinocéros, l'orang-outang, et divers animaux bizarres tels que : le kanguroo, l'oiseau-lyre, l'ornithorynque, etc.

L'OCÉANIE. — 50 millions d'habitants (Océaniens, Océaniennes).

L'*Océanie* est l'ensemble des îles répandues dans l'océan Pacifique ou Grand Océan.

Les principales îles de l'Océanie sont :

1° L'AUSTRALIE, grande île qui forme le *continent austral* et qui appartient à l'Angleterre; villes principales : *Melbourne* et *Sydney*.

2° Les *îles de la Sonde*, appartenant à la Hollande et dont les principales sont : *Sumatra*, *Java*, *Célèbes*, *Bornéo* (partie orientale).

3° Les *Philippines*, aux Etats-Unis.

4° La *Nouvelle-Guinée*, en partie aux Anglais et aux Hollandais.

5° La *Nouvelle-Calédonie*, à la France.

6° La *Nouvelle-Zélande*, à l'Angleterre.

QUESTIONNAIRE ET DEVOIRS : Cites les principales *îles* de l'Océanie.

Possessions françaises. — La France possède en Océanie : la *Nouvelle-Calédonie* (cap. *Nouméa*), les *îles Marquises*, les *îles de la Société*, les *îles Tuamotou*, les *îles Gambier* et les *îles Toubouaï*.

ÉLOCUTION. — Quelles sont les possessions françaises en Océanie ?





LECTURE ET COPIE. — **Les Hauteurs.**

Les plus grandes montagnes du monde, les monts Himalaya, en Asie, atteignent 8.840 mètres de hauteur ; la plus grande construction des hommes, la tour Eiffel, à Paris, n'a que 300 mètres.

L'homme a pu s'élever, en ballon et en avion, à plus de 10.000 mètres. Mais ce n'est pas sans péril qu'on arrive si haut ; car, à mesure qu'on monte, l'air devient plus rare et plus froid. A 7.000 mètres, on respire difficilement ; un peu plus haut, on est en danger de mort. Seuls, les grands oiseaux au vol puissant, tels que l'aigle, le condor et le vautour, peuvent atteindre ces régions élevées ; on en a vu planer bien au-dessus des plus hautes montagnes.

LECTURE ET COPIE. — **Les Profondeurs.**

Dans la terre, l'homme, en creusant les mines, est arrivé à une profondeur de plus de 1.400 mètres. Dans la mer, il ne peut descendre qu'à une profondeur de 50 mètres environ, à cause du poids énorme de l'eau qu'il a au-dessus de lui et qui l'écrase. Mais, au moyen d'instruments appelés *sondes*, on a découvert dans l'océan Pacifique des abîmes de plus de 9.000 mètres de fond.

ÉLOCUTION. — Dites de vive voix ce que vous savez : 1° sur les hauteurs, 2° sur les profondeurs.

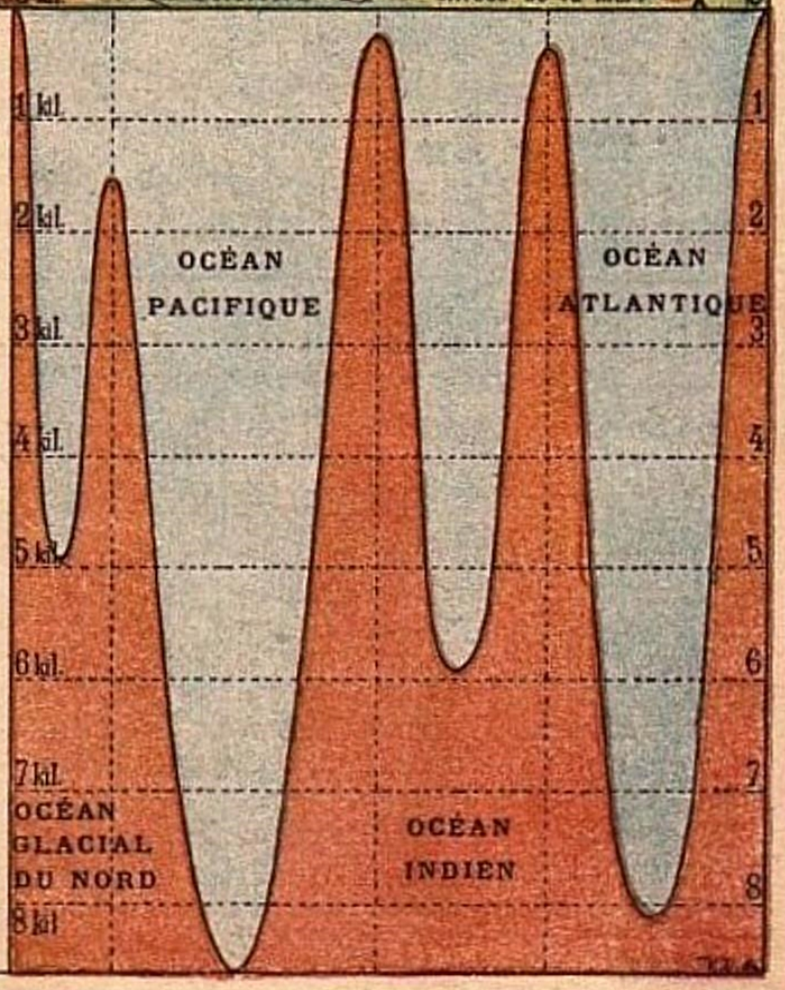

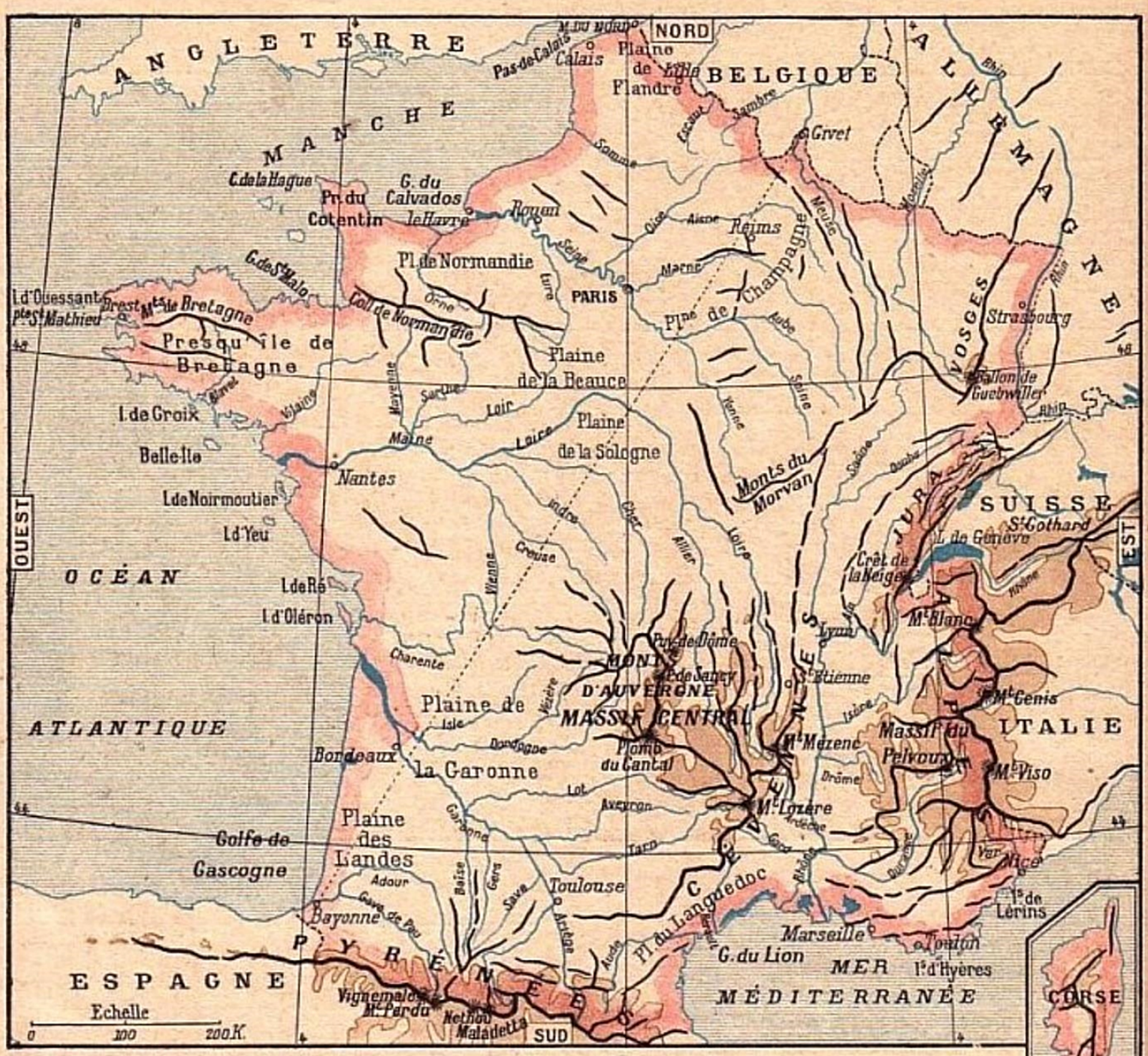

Carte de France : *Bornes et côtes ; cours d'eau ; plaines et montagnes.*
Si l'on tirait une ligne droite de Bayonne à Givet, on diviserait la France en deux régions : on aurait à gauche la région des plaines, et à droite la région des montagnes.

LA FRANCE

40.744.000 habitants (Français, Françaises).

1. **Bornes.** — La France est bornée : au nord, par la *Manche*, le *pas de Calais*, la *mer du Nord*, la *Belgique* et l'*Allemagne;* à l'est, par l'*Allemagne*, la *Suisse* et l'*Italie;* au sud, par la *Méditerranée* et l'*Espagne;* à l'ouest, par l'*océan Atlantique*.

2. **Mers.** — La France est baignée par quatre mers, qui sont : la *mer du Nord*, la *Manche*, l'*océan Atlantique* et la *Méditerranée*.

3. **Détroit.** — Le détroit du *pas de Calais*, entre la France et l'Angleterre.

Questionnaire et Devoirs : 1. Citez les bornes de la France. — 2. Par quelles mers est baignée la France ? — 3. Où se trouve le pas de Calais ?

1. **Golfes.** — Les quatre grands golfes de France sont : le *golfe du Calvados* et le *golfe de Saint-Malo*, formés par la Manche; le *golfe de Gascogne*, formé par l'océan Atlantique; le *golfe du Lion*, formé par la Méditerranée.

2. **Iles.** — 1° Dans l'océan Atlantique, la France possède : les îles d'*Ouessant*, de *Groix*, de *Belle-Isle*, de *Noirmoutier*, d'*Yeu*, de *Ré* et d'*Oléron ;* 2° Dans la Méditerranée : la *Corse*, les îles d'*Hyères* et les îles de *Lérins*.

Questionnaire et Devoirs : 1. Nommez les golfes de France, et dites par quelles mers ils sont formés. — 2. Nommez les îles de France.



Dunes. — Les *dunes* sont des amas de sable que la mer dépose sur les côtes basses et que le vent pousse dans les terres. En France, on voit des dunes en Flandre et en Gascogne.

Falaises. — Une *falaise* est une côte élevée se terminant par des pentes brusques. En France, on trouve des falaises sur les côtes de Normandie et de Picardie.

Rochers. — Les *rochers* sont de grandes masses de pierre. Sur les côtes de France, on trouve de nombreux rochers en Normandie, en Bretagne et en Provence.

1. **Presqu'îles.** — Les presqu'îles de France sont : la *presqu'île de Bretagne*, à l'ouest; la *presqu'île du Cotentin*, qui s'avance dans la Manche.

2. **Caps.** — Les caps principaux de France sont : le cap de *La Hague*, au nord de la presqu'île du Cotentin; la pointe de *Saint-Mathieu*, à l'ouest de la presqu'île de Bretagne.

3. **Montagnes intérieures.** — Dans l'intérieur de la France, on trouve : les *Cévennes ;* le *Massif central*, qui comprend les monts d'*Auvergne;* les monts du *Morvan ;* les *Vosges*.

A côté de ces montagnes, il faut citer les *monts de Bretagne* et les *collines de Normandie*.

4. **Montagnes frontières.** — Les chaînes de montagnes qui servent de frontière à la France sont : les *Pyrénées*, entre la France et l'Espagne; les *Alpes*, entre la France et l'Italie; le *Jura*, entre la France et la Suisse.

QUESTIONNAIRE ET DEVOIRS : 1. Quelles sont les presqu'îles de France? — 2. Nommez les caps de France. — 3. Quelles montagnes trouve-t-on dans l'intérieur de la France? — 4. Quelles sont les chaînes de montagnes frontières?

LECTURE ET COPIE.

Plaines.

La plaine de *Flandre* est fertile et bien cultivée; celle de *Champagne* produit des vins célèbres; celle de la *Beauce* est fertile en blé; celle de *Normandie* donne du cidre et possède de gras pâturages; celle de la *Sologne* est marécageuse; celle de la *Garonne* est fertile et riche en vignobles; celle des *Landes* est sablonneuse; celle du *Languedoc* est fertile en vins.

ÉLOCUTION. — Répétez de vive voix cette lecture.

LECTURE ET COPIE. — **Montagnes intérieures.**

Les sommets principaux des Cévennes sont : le mont *Mézenc* (1.754 mètres), le mont *Lozère* (1.702 mètres).

Les sommets principaux des monts d'Auvergne sont : le *Puy de Sancy* (1.886 mètres), le *Plomb du Cantal* (1.856 mètres), le *Puy de Dôme* (1.465 mètres).

Les monts du Morvan sont couverts de forêts et entourés de mines de houille.

ÉLOCUTION. — Citez les principaux sommets des Cévennes; des monts d'Auvergne.

LECTURE ET COPIE. — **Montagnes frontières.**

Les principaux pics des Pyrénées sont : le *Néthou* dans le massif de la Maladetta (3.404 mètres) et le mont *Perdu* (3.351 mètres), tous deux en Espagne; le *Vignemale* (3.298 mètres), en France.

Les principaux pics des Alpes sont : le mont *Blanc* (4.810 mètres), le plus haut pic de l'Europe centrale; le mont *Cenis* (3.500 mètres), le mont *Pelvoux* (3.954 mètres) et le mont *Viso* (3.836 mètres).

Le sommet principal du Jura est le *Crêt de la Neige* (1.728 mètres). — Le plus haut sommet des Vosges est le *Ballon de Guebwiller* (1.423 mètres).

ÉLOCUTION. — Citez les principaux sommets des Pyrénées; des Alpes; du Jura; des Vosges.



Hauteur comparée des chaînes de montagnes de France et de leurs principaux sommets.

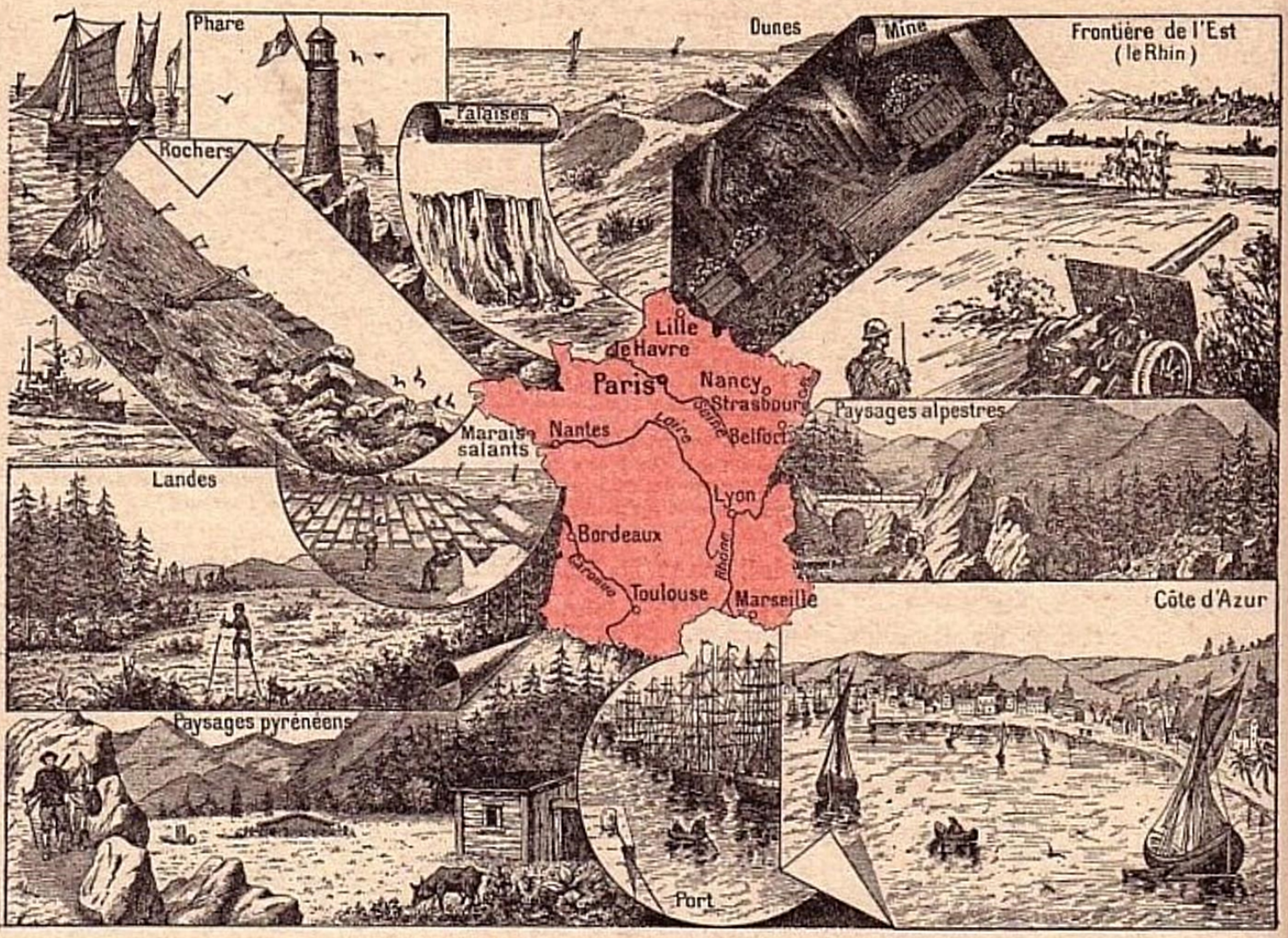

Ce que l'on voit sur les côtes et sur les frontières de France.

1. **Fleuves.** — La France est arrosée par cinq fleuves, qui sont : la *Seine*, la *Loire*, la *Garonne* le *Rhône* et le *Rhin*.

Bassin. — On appelle *bassin d'un fleuve* l'ensemble des terres arrosées par ce fleuve et ses affluents.

2. **Bassin de la Seine.** — La Seine prend sa source dans la Côte-d'Or et se jette dans la Manche.

Les affluents de la Seine sont : 1° sur la rive droite : l'*Aube*, la *Marne* et l'*Oise*, grossie de l'*Aisne;* 2° sur la rive gauche : l'*Yonne* et l'*Eure*.

3. **Bassin de la Loire.** — La Loire prend sa source dans les Cévennes, au mont Gerbier-de-Joncs, et se jette dans l'océan Atlantique.

Les affluents de la Loire sont : 1° sur la rive droite : la *Maine*, formée par la réunion de la *Mayenne*, de la *Sarthe* et du *Loir;* 2° sur la rive gauche : l'*Allier*, le *Cher*, l'*Indre* et la *Vienne*, grossie de la *Creuse*.

Questionnaire et Devoirs : 1. Quels sont les cinq grands fleuves de France ? — Qu'appelle-t-on *bassin d'un fleuve?* — 2. Où prend sa source la Seine? Où a-t-elle son embouchure? — Citez les affluents de la Seine : 1° rive droite; 2° rive gauche. — 3. Où prend sa source la Loire? Où a-t-elle son embouchure ? — Citez les affluents de la Loire : 1° rive droite ; 2° rive gauche.

1. **Bassin de la Garonne.** — La Garonne prend sa source dans les Pyrénées, au val d'Aran, en Espagne, et se jette dans l'Atlantique.

Les affluents de la Garonne sont : 1° sur la rive droite : l'*Ariège*, le *Tarn*, grossi de l'*Aveyron*, le *Lot* et la *Dordogne*, grossie de la *Vézère* et de l'*Isle;* 2° sur la rive gauche : la *Save*, le *Gers* et la *Baïse*.

2. **Bassin du Rhône.** — Le Rhône prend sa source dans les Alpes, en Suisse, et se jette dans la mer Méditerranée.

Les affluents du Rhône sont : 1° sur la rive droite : l'*Ain*, la *Saône*, grossie du *Doubs*, l'*Ardèche* et le *Gard* ; 2° sur la rive gauche : l'*Isère*, la *Drôme* et la *Durance*.

3. **Bassin du Rhin.** — Le Rhin prend sa source en Suisse et se jette dans la mer du Nord. Il reçoit, venant de France, l'Ill et la Moselle, grossie de la Meurthe.

Questionnaire et Devoirs : 1. Où la Garonne prend-elle sa source? Où a-t-elle son embouchure ? — Citez les affluents de la Garonne : 1° rive droite; 2° rive gauche. — 2. Où le Rhône prend-il sa source? Où a-t-il son embouchure ? — Quels sont les affluents du Rhône : 1° rive droite ; 2° rive gauche. — 3. Où le Rhin prend-il sa source ? Où a-t-il son embouchure ?

LECTURE et COPIE. — **Autres fleuves.**

La France est encore arrosée, au nord, par deux fleuves, la *Meuse* et l'*Escaut*, qui traversent la Belgique et vont se jeter dans la mer du Nord.

Les autres fleuves de France sont : la *Somme* et l'*Orne*, qui se jettent dans la Manche; le *Blavet*, la *Vilaine*, la *Charente* et l'*Adour*, qui se jettent dans l'océan Atlantique; l'*Aude*, l'*Hérault* et le *Var*, qui se jettent dans la Méditerranée.

Élocution : Répétez cette lecture en montrant les fleuves sur la carte.

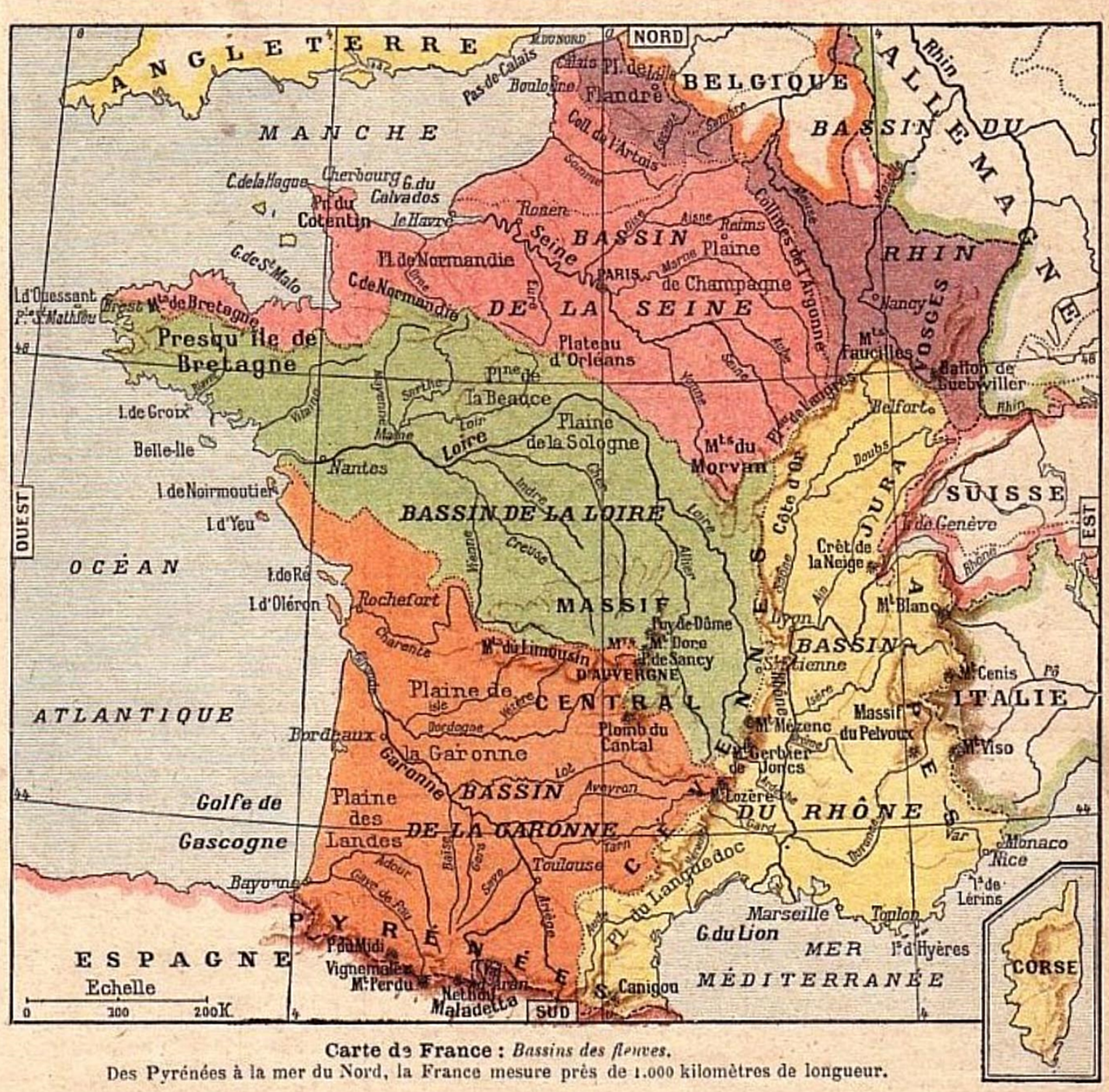

Carte de France : *Bassins des fleuves.*
Des Pyrénées à la mer du Nord, la France mesure près de 1.000 kilomètres de longueur.

PROVINCES & DÉPARTEMENTS

Autrefois, la France était divisée en provinces. En 1790, les provinces supprimées formèrent des départements.

Aujourd'hui, la France est divisée en 89 départements, plus le territoire de Belfort :

Les départements empruntent leur nom aux cours d'eau, aux montagnes, à leur situation, à la nature du sol.

Région du Nord

La **Flandre**, cap. *Lille*, a formé un département :
1. Le dép. du Nord, chef-lieu *Lille*.

L'**Artois**, cap. *Arras*, a formé un département :
1. Pas-de-Calais, chef-lieu *Arras*.

La **Picardie**, cap. *Amiens*, a formé un département :
1. Somme, chef-lieu *Amiens*.

La **Normandie**, cap. *Rouen*, a formé cinq départements :
1. Seine-Inférieure, chef-lieu *Rouen*.
2. Eure, chef-lieu *Evreux*.
3. Orne, chef-lieu *Alençon*.
4. Calvados, chef-lieu *Caen*.
5. Manche, chef-lieu *Saint-Lô*.

L'**Ile-de-France**, cap. *Paris*, a formé cinq départements :
1. Seine, chef-lieu *Paris*.
2. Seine-et-Oise, chef-lieu *Versailles*.
3. Seine-et-Marne, chef-lieu *Melun*.
4. Oise, chef-lieu *Beauvais*.
5. Aisne, chef-lieu *Laon*.

La **Champagne**, cap. *Troyes*, a formé quatre départements :
1. Aube, chef-lieu *Troyes*.
2. Haute-Marne, chef-lieu *Chaumont*.
3. Marne, chef-lieu *Châlons*.
4. Ardennes, chef-lieu *Mézières*.

Région de l'Est

L'**Alsace**, cap. *Strasbourg*, a formé deux départements :
1. Haut-Rhin, chef-lieu *Colmar*.
2. Bas-Rhin, chef-lieu *Strasbourg*. (Plus le Territoire de *Belfort*.)

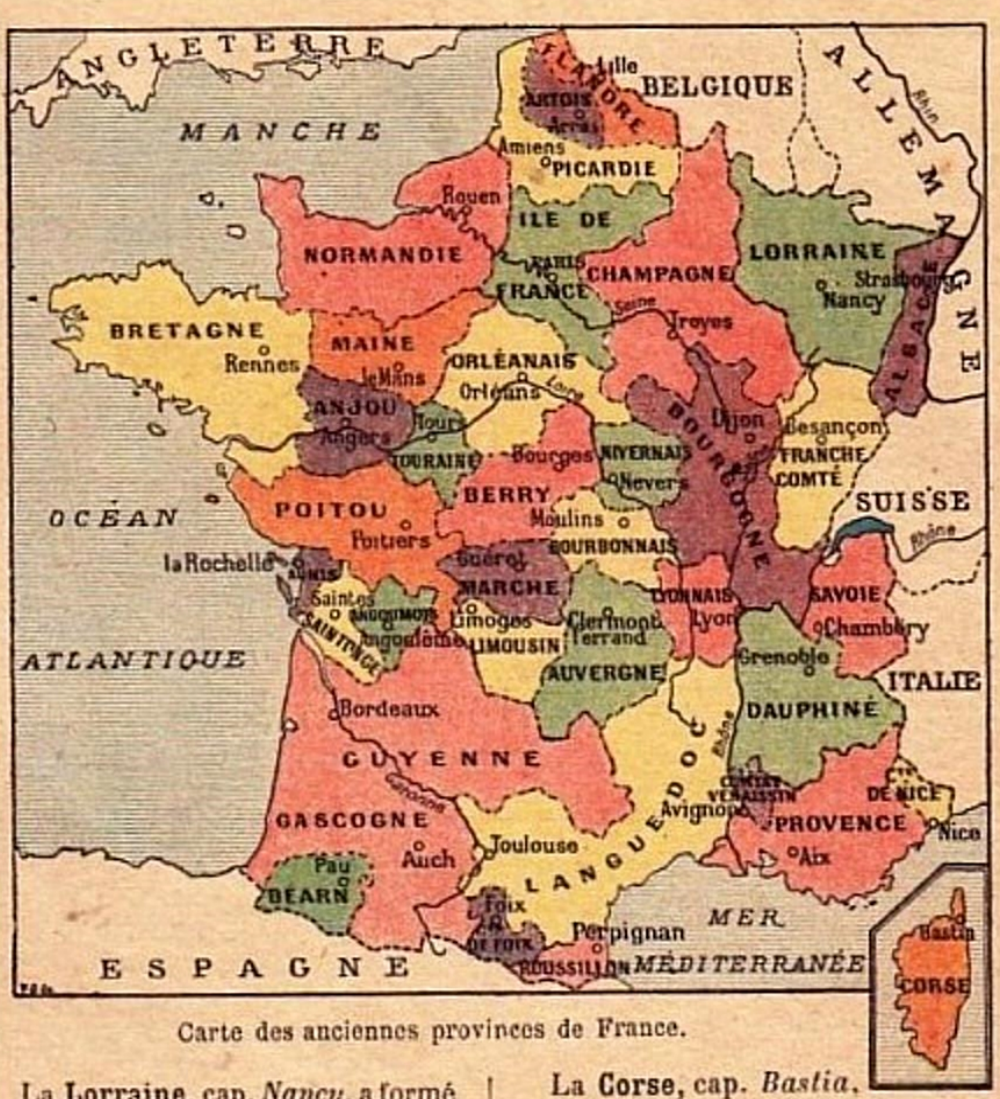

Carte des anciennes provinces de France.

La **Lorraine**, cap. *Nancy*, a formé quatre départements :
1. Meuse, chef-lieu *Bar-le-Duc*.
2. Vosges, chef-lieu *Epinal*.
3. Meurthe-et-Moselle, ch.-l. *Nancy*.
4. Moselle, chef-lieu *Metz*.

La **Franche-Comté**, cap. *Besançon*, a formé trois départements :
1. Haute-Saône, chef-lieu *Vesoul*.
2. Doubs, chef-lieu *Besançon*.
3. Jura, chef-lieu *Lons-le-Saunier*.

La **Bourgogne**, cap. *Dijon*, a formé quatre départements :
1. Yonne, chef-lieu *Auxerre*.
2. Côte-d'Or, chef-lieu *Dijon*.
3. Saône-et-Loire, chef-lieu *Mâcon*.
4. Ain, chef-lieu *Bourg*.

Le **Lyonnais**, cap. *Lyon*, a formé deux départements :
1. Rhône, chef-lieu *Lyon*.
2. Loire, chef-lieu *Saint-Etienne*.

La **Savoie**, cap. *Chambéry*, a formé deux départements :
1. Haute-Savoie, chef-lieu *Annecy*.
2. Savoie, chef-lieu *Chambéry*.

Le **Dauphiné**, cap. *Grenoble*, a formé trois départements :
1. Isère, chef-lieu *Grenoble*.
2. Drôme, chef-lieu *Valence*.
3. Hautes-Alpes, chef-lieu *Gap*.

Région du Sud

Le **Comté de Nice**, cap. *Nice*, a formé un département :
1. Alpes-Maritimes, chef-lieu *Nice*.

La **Corse**, cap. *Bastia*, a formé un département :
1. Corse, chef-lieu *Ajaccio*.

La **Provence**, cap. *Aix*, a formé trois départements :
1. Basses-Alpes, chef-lieu *Digne*.
2. Var, chef-lieu *Draguignan*.
3. Bouches-du-Rhône, ch.-l. *Marseille*.

Le **Comtat-Venaissin**, cap. *Avignon*, a formé un département :
1. Vaucluse, chef-lieu *Avignon*.

Le **Languedoc**, cap. *Toulouse*, a formé huit départements :
1. Haute-Garonne, chef-lieu *Toulouse*.
2. Tarn, chef-lieu *Albi*.
3. Aude, chef-lieu *Carcassonne*.
4. Hérault, chef-lieu *Montpellier*.
5. Gard, chef-lieu *Nîmes*.
6. Lozère, chef-lieu *Mende*.
7. Ardèche, chef-lieu *Privas*.
8. Haute-Loire, chef-lieu *Le Puy*.

Le **Roussillon**, cap. *Perpignan*, a formé un département :
1. Pyrénées-Orientales, chef-lieu *Perpignan*.

Le **Comté de Foix**, cap. *Foix*, a formé un département :
1. Ariège, chef-lieu *Foix*.

La **Guyenne** et la **Gascogne**, cap. *Bordeaux* et *Auch*, ont formé neuf départements :
1. Gironde, chef-lieu *Bordeaux*.
2. Dordogne, chef-lieu *Périgueux*.
3. Lot, chef-lieu *Cahors*.
4. Aveyron, chef-lieu *Rodez*.
5. Tarn-et-Garonne, ch.-l. *Montauban*
6. Lot-et-Garonne, chef-lieu *Agen*.
7. Landes, chef-lieu *Mont-de-Marsan*.
8. Gers, chef-lieu *Auch*.
9. Hautes-Pyrénées, chef-lieu *Tarbes*.

Le **Béarn**, cap. *Pau*, a formé un département :
1. Basses-Pyrénées, chef-lieu *Pau*.

Région de l'Ouest

L'**Aunis** et la **Saintonge**, cap. *Saintes* et *La Rochelle*, ont formé un département :
1. Charente-Inférieure, chef-lieu *La Rochelle*.

L'**Angoumois**, cap. *Angoulême*, a formé un département :
1. Charente, chef-lieu *Angoulême*.

Le **Poitou**, cap. *Poitiers*, a formé trois départements :
1. Vienne, chef-lieu *Poitiers*.
2. Deux-Sèvres, chef-lieu *Niort*.
3. Vendée, chef-lieu *La Roche-sur-Yon*.

L'**Anjou**, cap. *Angers*, a formé un département :
1. Maine-et-Loire, chef-lieu *Angers*.

La **Bretagne**, cap. *Rennes*, a formé cinq départements.
1. Loire-Inférieure, chef-lieu *Nantes*.
2. Morbihan, chef-lieu *Vannes*.
3. Finistère, chef-lieu *Quimper*.
4. Côtes-du-Nord, ch.-l. *Saint-Brieuc*.
5. Ille-et-Vilaine, chef-lieu *Rennes*.

Le **Maine**, cap. *Le Mans*, a formé deux départements :
1. Mayenne, chef-lieu *Laval*.
2. Sarthe, chef-lieu *Le Mans*.

Région du Centre

L'**Orléanais**, cap. *Orléans*, a formé trois départements :
1. Loiret, chef-lieu *Orléans*.
2. Eure-et-Loir, chef-lieu *Chartres*.
3. Loir-et-Cher, chef-lieu *Blois*.

La **Touraine**, cap. *Tours*, a formé un département :
1. Indre-et-Loire, chef-lieu *Tours*.

Le **Berry**, cap. *Bourges*, a formé deux départements :
1. Cher, chef-lieu *Bourges*.
2. Indre, chef-lieu *Châteauroux*.

Le **Nivernais**, cap. *Nevers*, a formé un département :
1. Nièvre, chef-lieu *Nevers*.

Le **Bourbonnais**, cap. *Moulins*, a formé un département :
1. Allier, chef-lieu *Moulins*.

La **Marche**, cap. *Guéret*, a formé un département :
1. Creuse, chef-lieu *Guéret*.

Le **Limousin**, cap. *Limoges*, a formé deux départements :
1. Haute-Vienne, chef-lieu *Limoges*.
2. Corrèze, chef-lieu *Tulle*.

L'**Auvergne**, cap. *Clermont-Ferrand*, a formé deux départements
1. Puy-de-Dôme, chef-lieu *Clermont-Ferrand*.
2. Cantal, chef-lieu *Aurillac*.

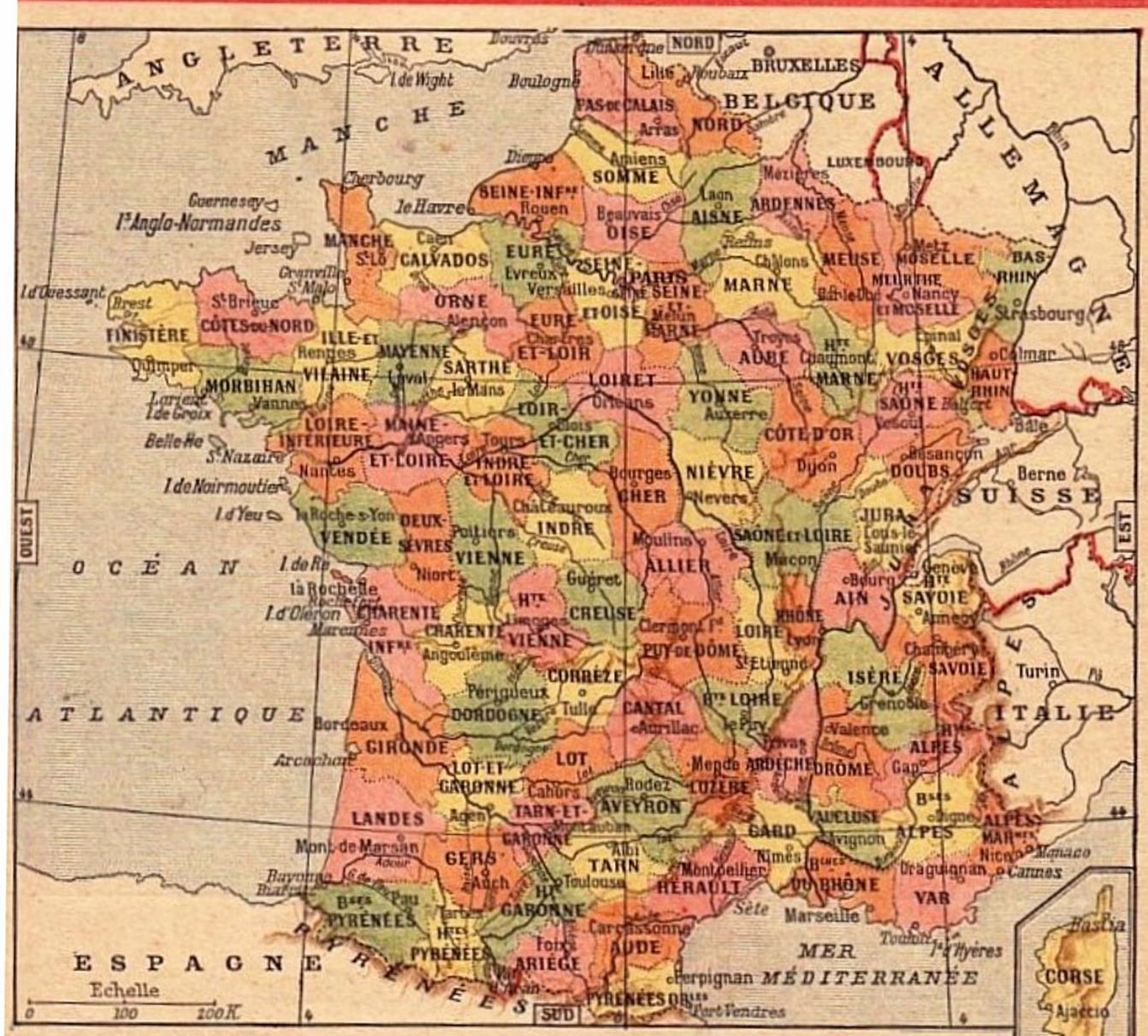

France par départements.—Questionnaire et Devoirs : Nommez les départements arrosés par : la Seine ; la Loire ; la Garonne ; le Rhône. Citez les villes baignées par la Seine ; par la Loire ; par la Garonne ; par le Rhône.

LECTURE ET COPIE. — **Gouvernement et Administration de la France.**

Le gouvernement de la France est exercé par le *Président de la République*, assisté de *ministres*, qui ont pour auxiliaires les *préfets*, les *sous-préfets*, les *maires*.

La France est divisée en *départements ;* chaque département, en *arrondissements ;* chaque arrondissement, en *cantons ;* chaque canton, en *communes*. — Un département est administré par un préfet ; un arrondissement, par un sous-préfet ; une commune, par un maire.

Élocution. — Répétez de vive voix la lecture ci-dessus.

LECTURE ET COPIE. — **Les grandes villes.**

Dix-sept villes, en France, ont plus de 100.000 habitants : *Paris*, sur la Seine, est le siège du gouvernement, le centre de toutes les industries et la plus belle ville du monde. *Marseille*, sur la Méditerranée, est le premier port marchand français et fabrique du savon et de l'huile. *Lyon*, sur le Rhône et la Saône, possède de célèbres manufactures de soie. *Bordeaux*, port sur la Garonne, fait un grand commerce de vins. *Lille* a des usines métallurgiques et fabrique des toiles. *Toulouse*, sur la Garonne, fait commerce de vins et de céréales. *Saint-Étienne* a des mines de houille, des fabriques de rubans et d'armes. *Le Havre*, à l'embouchure de la Seine, est le second port marchand français. *Strasbourg*, sur l'Ill, fabrique des tissus, des draps, de la bière. *Nantes*, sur la Loire, fabrique des conserves alimentaires. *Nice*, sur la Méditerranée, fait commerce de fleurs, d'oranges et d'huiles. *Roubaix*, près de Lille, fabrique des lainages. *Rouen*, port sur la Seine, fabrique des cotonnades. *Reims* vend des vins de Champagne et fabrique des tissus de laine. *Nancy* a dans ses environs des usines métallurgiques et des verreries. *Toulon*, sur la Méditerranée, est notre grand port militaire. *Clermont-Ferrand*, dans le Massif Central a de grandes manufactures de caoutchouc.

Élocution. — Répétez cette lecture en montrant les villes sur la carte.

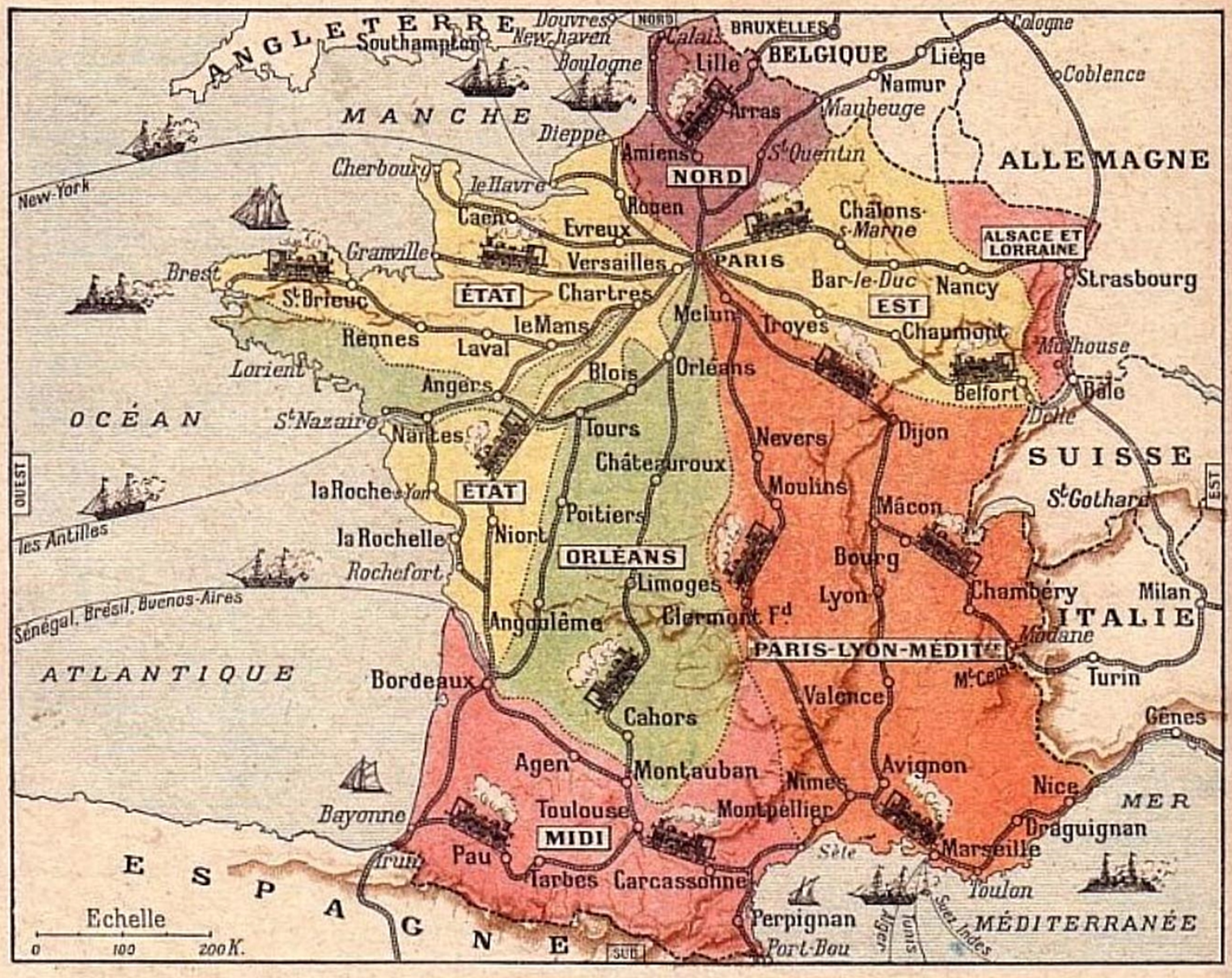

Carte de France. — Chemins de fer et navigation.

CHEMINS DE FER

Les chemins de fer de France se divisent en six réseaux :

1° **Réseau du Nord.** — Les grandes lignes du réseau du Nord sont : de Paris à Calais ; de Paris à Lille ; de Paris à Maubeuge.

2° **Réseau de l'Est.** — Les grandes lignes du réseau de l'Est sont : de Paris à Strasbourg ; de Paris à Belfort.

3° **Réseau de Paris-Lyon-Méditerranée.** — Les grandes lignes du réseau de Paris-Lyon-Méditerranée sont : de Paris à Marseille ; de Paris à Cette ; de Paris à Modane.

4° **Réseau de Paris-Orléans.** — Les grandes lignes du réseau de Paris-Orléans sont : de Paris à Toulouse ; de Paris à Bordeaux ; de Paris à Saint-Nazaire.

5° **Réseau du Midi.** — Les grandes lignes du réseau du Midi sont : de Bordeaux à Cette ; de Bordeaux à Bayonne ; de Toulouse à Bayonne.

6° **Réseau de l'État.** — Les grandes lignes du réseau de l'État sont : de Paris à Bordeaux ; de Bordeaux à Nantes. — Ancien réseau de l'Ouest. — Les grandes lignes sont : de Paris à Brest ; de Paris à Granville ; de Paris à Cherbourg ; de Paris au Havre.

QUESTIONNAIRE ET DEVOIRS : Nommez les lignes du réseau du *Nord* ; du réseau de l'*Est* ; du réseau *Paris-Lyon-Méditerranée* ; du réseau *Paris-Orléans* ; du réseau du *Midi* ; du réseau de l'*Etat*.

LECTURE ET COPIE. — **Voies de communication.**

Toutes les villes de France, grandes et petites, sont reliées entre elles soit par des routes, soit par des chemins de fer, soit par des cours d'eau.

Les routes, les chemins de fer et les cours d'eau facilitent le transport des voyageurs et des marchandises. Les chemins de fer sont les voies de communication les plus rapides.

ÉLOCUTION. — Répétez de vive voix la lecture ci-dessus.

PORTS

Un *port* est un endroit de la côte disposé pour abriter, charger et décharger les navires.

Les *ports marchands* reçoivent les navires de commerce qui servent à transporter les voyageurs et les marchandises.

Les *ports militaires* reçoivent les navires de guerre qui servent à défendre la patrie.

Récolte des pommes pour le cidre. — Récolte du blé pour le pain. — Récolte du raisin pour le vin. — Récolte du houblon pour la bière. — Lin et chanvre pour tissus.

Ports marchands. — Les principaux ports marchands sont :

1° Sur la mer du Nord : *Dunkerque.*

2° Sur la Manche : *Calais*, *Boulogne*, *Dieppe*, *Le Havre*, *Rouen* (sur la Seine), *Granville*.

3° Sur l'Atlantique : *Saint-Nazaire*, *Nantes* (sur la Loire), *La Rochelle*, *Bordeaux* (sur la Garonne), *Bayonne*.

4° Sur la Méditerranée : *Sète*, *Marseille*, *Nice*.

Ports militaires. — La France a quatre ports militaires qui sont : *Cherbourg*, sur la Manche; *Brest* et *Lorient*, sur l'océan Atlantique; *Toulon*, sur la Méditerranée.

QUESTIONNAIRE ET DEVOIRS : Qu'est-ce qu'un port? — Quels sont les ports marchands : sur la mer du Nord? sur la Manche? sur l'Atlantique? sur la Méditerranée? — Quels sont les ports militaires : sur la Manche? sur l'Atlantique? sur la Méditerranée?

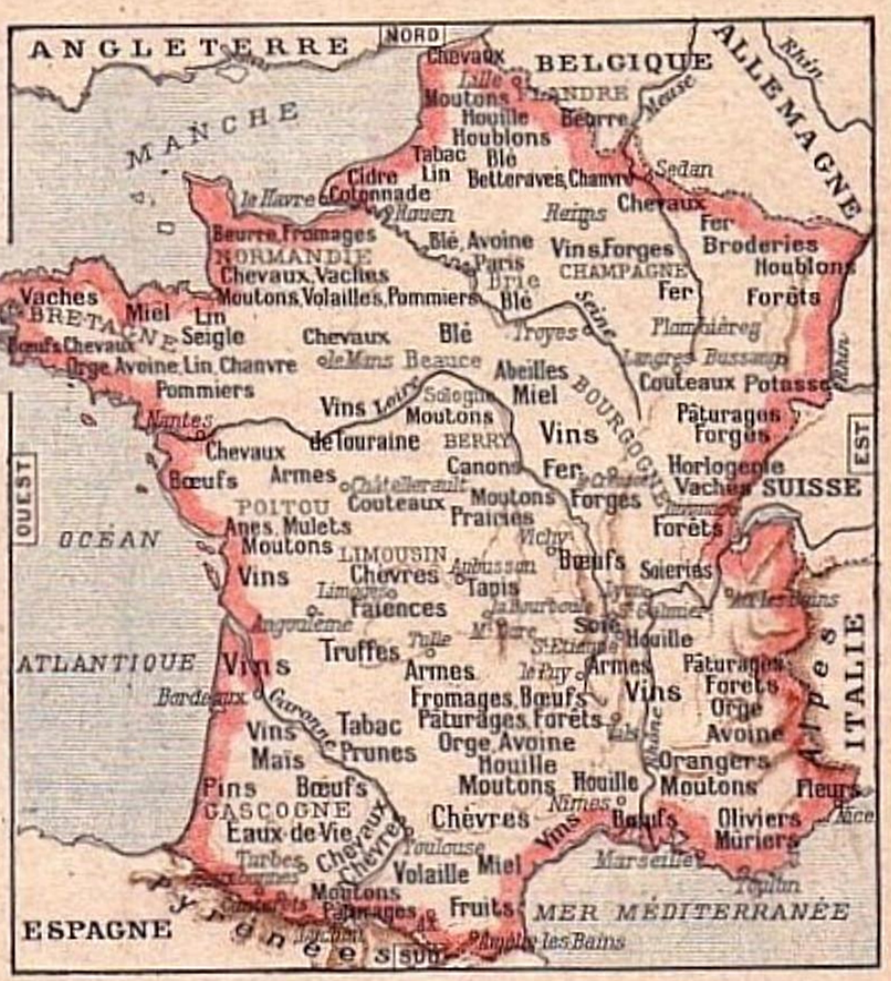

La France et ses productions.

LECTURE ET COPIE. — **La France.**

La France est un des plus beaux pays du monde. Ses paysages sont extrêmement variés ; son sol, arrosé par une infinité de cours d'eau, est très fertile ; son climat est partout agréable.

En France, l'agriculture est la principale richesse. On y cultive le *blé*, l'*orge*, le *seigle*, le *maïs*, la *pomme de terre*, la *vigne*, la *betterave*, le *lin*, le *chanvre*, l'*olivier*, le *mûrier*, le *houblon*, le *tabac*, etc. On y trouve de gras *pâturages* et les *arbres fruitiers* sont répandus dans toutes les régions. On y élève de nombreux *chevaux*, des *ânes*, des *mulets*, des *bœufs*, des *moutons*, des *porcs*, des *chèvres* et toute espèce de *volaille*.

L'industrie, en France, est très importante. On y fabrique des tissus de *laine*, de *coton* et de riches *soieries*. Les ateliers de *bijouterie*, d'*orfèvrerie*, d'*horlogerie* sont renommés. On trouve dans le sol le *fer*, la *houille*, le *marbre*, l'*ardoise* et de nombreuses *pierres à bâtir*, etc. De grandes usines, pour le travail du fer, de la fonte et de l'acier, fabriquent des instruments, des armes, et construisent de puissantes machines.

ÉLOCUTION. — Que cultive-t-on en France? — Quels animaux élève-t-on? — Que fabrique-t-on? — Que trouve-t-on dans le sol?

Carrière de pierres. — Marais salants. — Galerie de mine de houille. — Verrerie. — Travail du fer.

Arabes d'Algérie et de Tunisie.

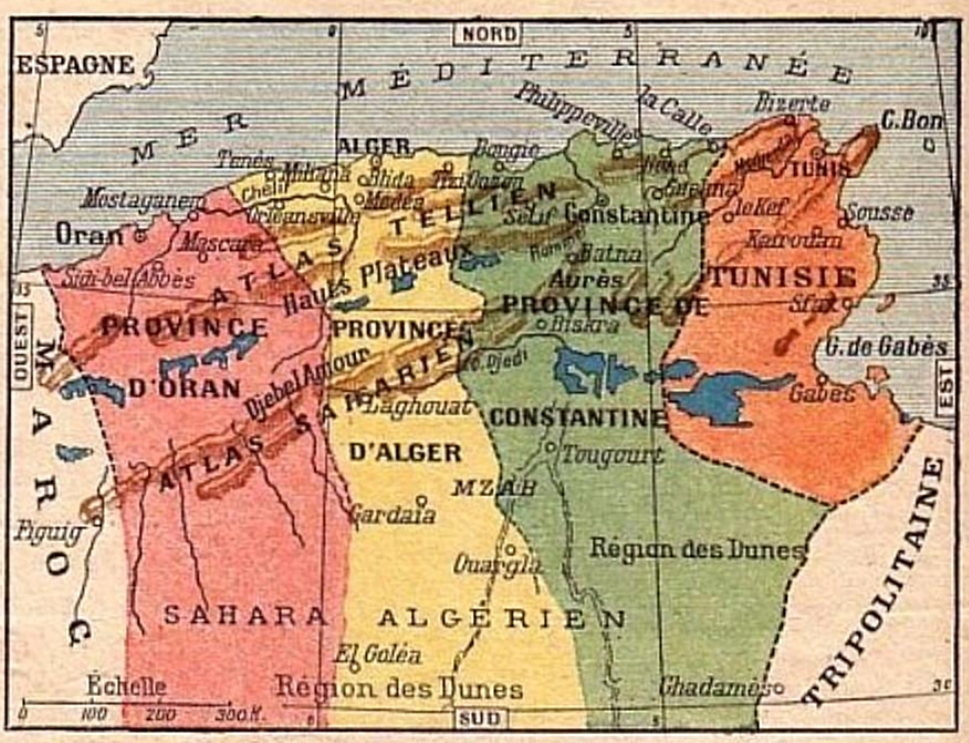

Carte de l'Algérie et de la Tunisie.

ALGÉRIE ET TUNISIE

L'Algérie est divisée en trois départements, qui sont :

Le dép. d'ALGER, chef-lieu *Alger*.

Le dép. d'ORAN, chef-lieu *Oran*.

Le dép. de CONSTANTINE, chef-lieu *Constantine*.

La **Tunisie** : capitale TUNIS, résidence du bey.

Le **Maroc** : v. pr. FEZ, résidence du sultan; RABAT, siège des autorités françaises.

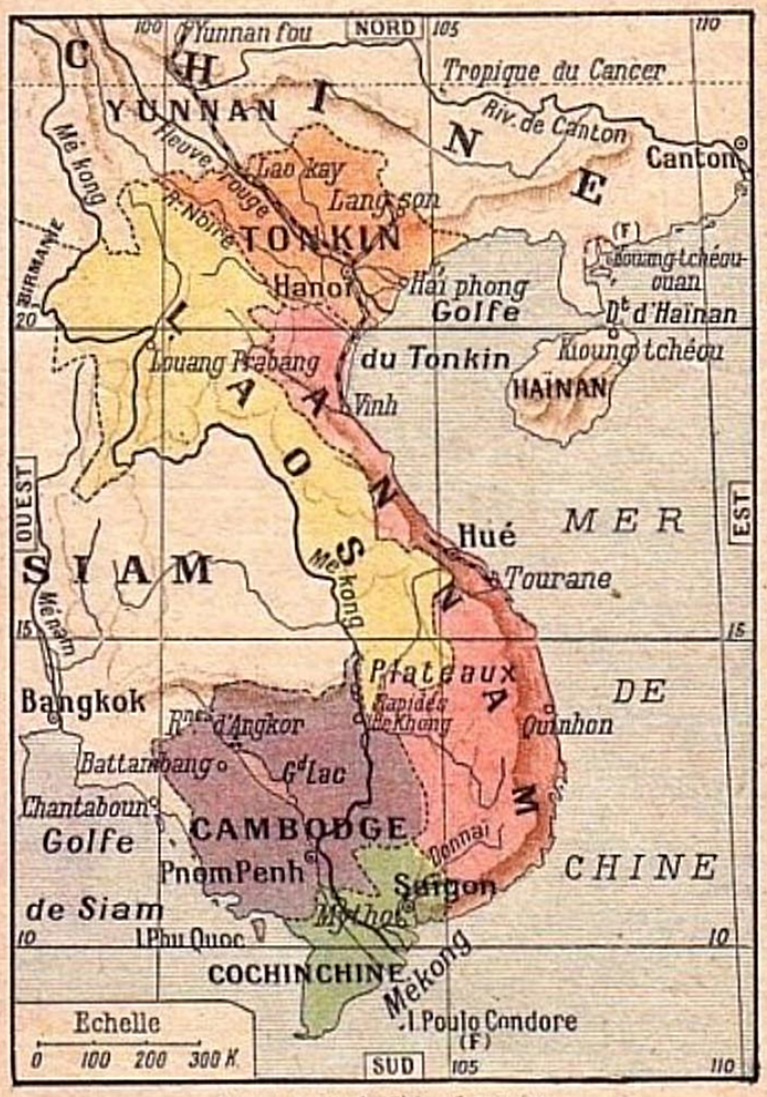

Carte de l'Indo-Chine française.

LECTURE ET COPIE. — **Algérie et Tunisie.**

L'*Algérie*, située au nord de l'Afrique, est la plus belle des colonies françaises. Son climat est tempéré, près de la mer; il est très chaud en été sur les hauts plateaux des montagnes de l'Atlas et froid en hiver. Le soleil est brûlant au sud, dans le désert, le Sahara.

On voit en Algérie de belles forêts et de gras pâturages. On y récolte le coton, le tabac, le raisin, les dattes, les oranges, les citrons, les olives, l'alfa et les céréales. On y trouve des mines de cuivre, de fer, de plomb, de zinc, de marbre, de sel gemme, etc. On y rencontre le lion, la panthère, le chacal, l'hyène, le dromadaire, le cheval et tous les animaux domestiques.

La *Tunisie* et le *Maroc*, qui sont sous le protectorat de la France, donnent les mêmes productions que l'Algérie.

LECTURE ET COPIE. — **Indo-Chine française.**

L'Indo-Chine française comprend : le TONKIN, capitale *Hanoï;* l'ANNAM, cap. *Hué;* le CAMBODGE, cap. *Pnom-Penh;* la COCHINCHINE, cap. *Saïgon*, et le LAOS.

L'Indo-Chine produit le riz, la soie, le coton, le tabac, le poivre, le thé, l'opium et des bois précieux. On y trouve des mines de houille et de divers métaux.

(*Voir les possessions françaises, pages 15, 17, 18, 20.*)

Types de l'Indo-Chine française.

Un *tremblement de terre* est une secousse qui ébranle le sol. C'est dans les pays montagneux, peu éloignés de la mer, que les tremblements de terre se font surtout sentir.

Une *inondation* est le débordement des eaux, causé soit par la fonte rapide des neiges, soit par les grandes pluies. Les inondations font presque toujours d'immenses ravages.

Une *tempête* est un vent très violent souvent accompagné de pluie, de grêle, d'éclairs et de tonnerre. C'est sur mer surtout que les tempêtes sont terribles.

Une *avalanche* est une masse considérable de neige qui se détache des hautes montagnes et roule avec fracas dans la vallée, en entraînant tout ce qu'elle trouve sur son passage.



Une *trombe* est une masse d'eau qui, poussée par le vent, tourbillonne rapidement et se soulève dans l'air en forme de colonne. Les trombes détruisent tout ce qu'elles rencontrent.



Un *iceberg* est une montagne de glace qui flotte sur les vagues. On trouve les icebergs dans les mers polaires, et leur rencontre est fort dangereuse pour les navires.

Planisphère terrestre, c'est-à-dire : la Terre représentée sur une surface plane.
Diverses productions des cinq parties du monde.

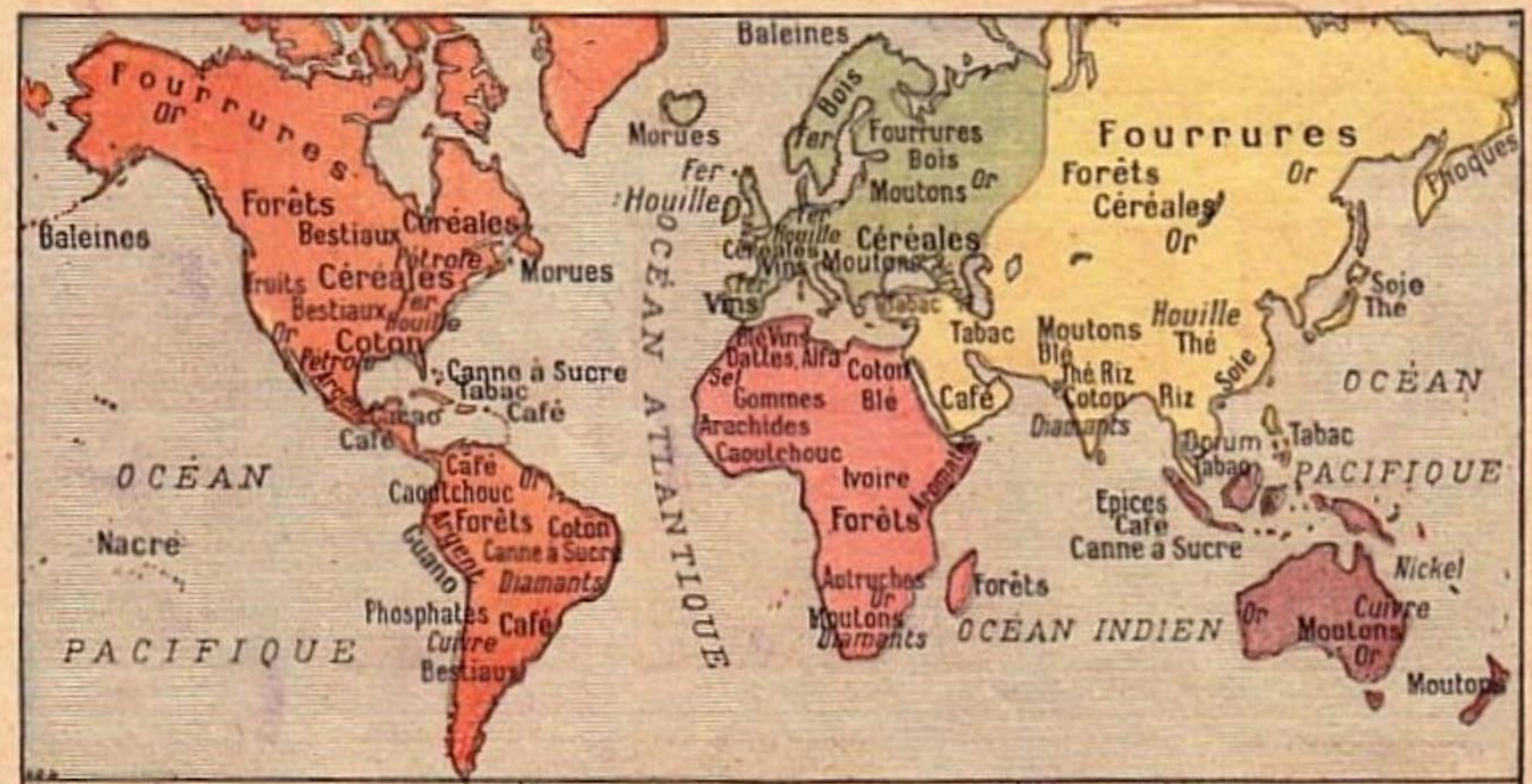

Volga	(Eur)	3400 K	Garonne	(Eur)	650 K	Nil	(Afr)	5940 K
Danube	(Eur)	2850 K	Fl. Bleu	(Asie)	5062 K	Congo	(Afr)	4200 K
Rhin	(Eur)	1320 K	Amour	(Asie)	4377 K	Niger	(Afr)	4160 K
Loire	(Eur)	980 K	Mékong	(Asie)	4240 K	Mississipi	(Am)	5882 K
Rhône	(Eur)	840 K	Obi	(Asie)	4220 K	Amazone	(Am)	5710 K
Seine	(Eur)	776 K	Gange	(Asie)	2700 K	St Laurent	(Am)	1135 K

Longueur comparée des grands fleuves du monde et des grands fleuves de France.


FRANCE
ALBANIE
ALLEMAGNE
Rép ARGENTINE
AUTRICHE
BELGIQUE
BOLIVIE
BRÉSIL
BULGARIE
CHILI
CHINE
COLOMBIE
DANEMARK
ÉQUATEUR
ESPAGNE
ESTHONIE
ÉTATS-UNIS
FINLANDE
Gde BRETAGNE
GRÈCE
HOLLANDE
HONGRIE
ITALIE
JAPON
LETTONIE
MEXIQUE
NORVÈGE
PÉROU
PERSE
POLOGNE
PORTUGAL
ROUMANIE
RUSSIE
SIAM
SUÈDE
SUISSE
TCHÉCOSLOVAQUIE
TURQUIE
VÉNÉZUÉLA
YOUGOSLAVIE

LIBRAIRIE LAROUSSE, 13-17 RUE MONTPARNASSE, PARIS (6e)
et chez tous les libraires

LIVRES CLASSIQUES

Pour les Classes enfantines et les Cours élémentaires

Lecture

RÉGAMEY ..... Autour des saisons. 105 dessins originaux.
HENRIETTE PERRIN... Mon Livre d'histoires. 94 gravures.
BERVILLE..... Le Monde des enfants. 101 gravures.
C. JURANVILLE..... Premier Livre des petites filles. 160 gravures.
BERVILLE..... Premier Livre des petits garçons. 93 gravures.

Langue française

CLAUDE AUGÉ..... Grammaire enfantine. 160 exercices. 100 dictées. 80* rédactions d'après l'image, 100 gravures. Livre de l'élève et livre du maître.
BREUIL..... Leçons illustrées de français. Cours préparatoire. 120 tableaux. *Élève* et *Maître*.

Histoire

AUGÉ et PETIT ..... Histoire de France en images. 140 gravures.
— — ..... Livre préparatoire d'Histoire de France. 200 grav.

Géographie

DRIAULT, RANDOUX et BIZEAU. Cours élémentaire, 27 cartes en couleurs, 90 gravures.

Sciences

DUTILLEUL et RAMÉ.. Les Sciences physiques et naturelles. Cours préparatoire et élémentaire. 143 gravures, 4 planches en couleurs.

Musique

CLAUDE AUGÉ..... Les Chants de l'enfance. 145 gravures.

Imp. LAROUSSE, 1 à 9, rue d'Arcueil, Montrouge. 8-7-29.